おうちで、やろう。年中児版

Study at home. 小学校受験の家庭学習教材

記憶：絵の記憶 23
（問題用紙）

別紙『記憶－絵の記憶 23』を行う際に使用します。記憶用紙は点線で折って（切って）、①、②の問題の際にそれぞれ 20 秒間ずつ記憶させてください。記憶する際は問題用紙は裏返しにします。記憶後①、②それぞれの問題に答えましょう。
①コウモリの数だけ□を塗ります。　②黒猫と幽霊を合わせた数だけ△を塗ります。。

①

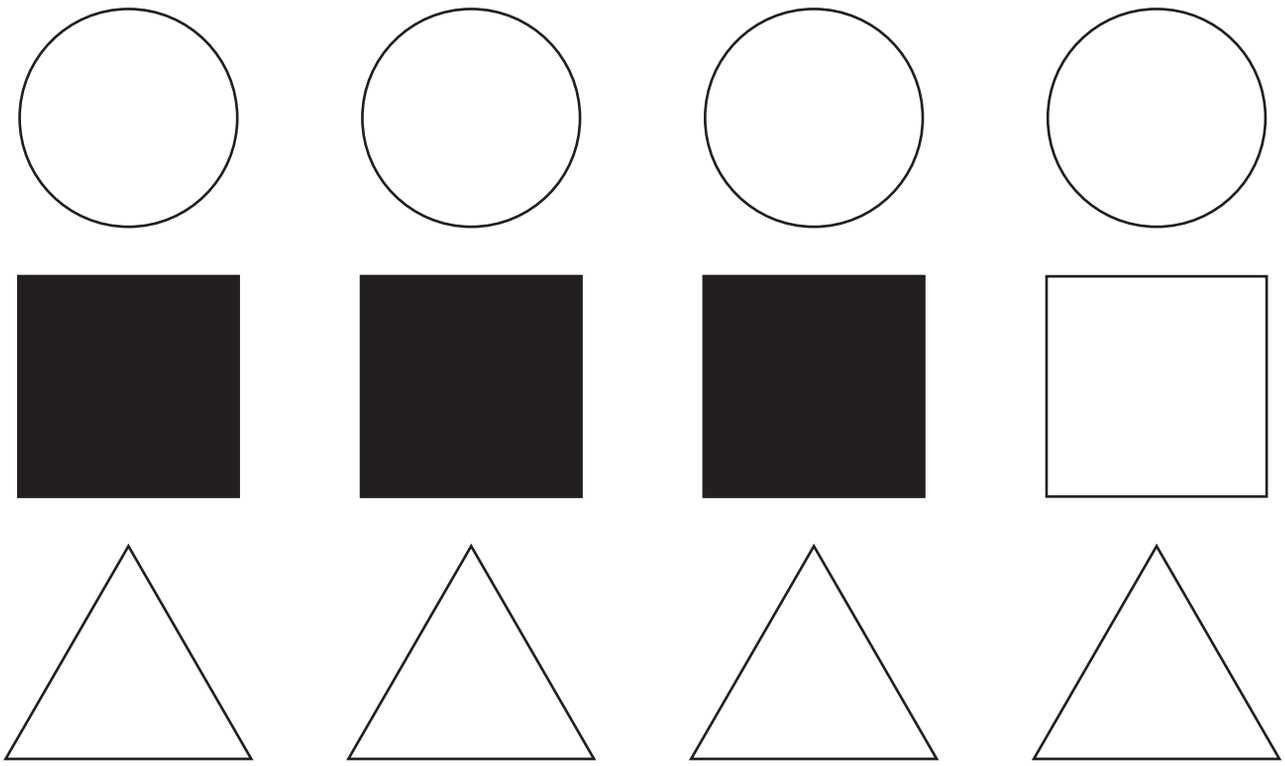

②

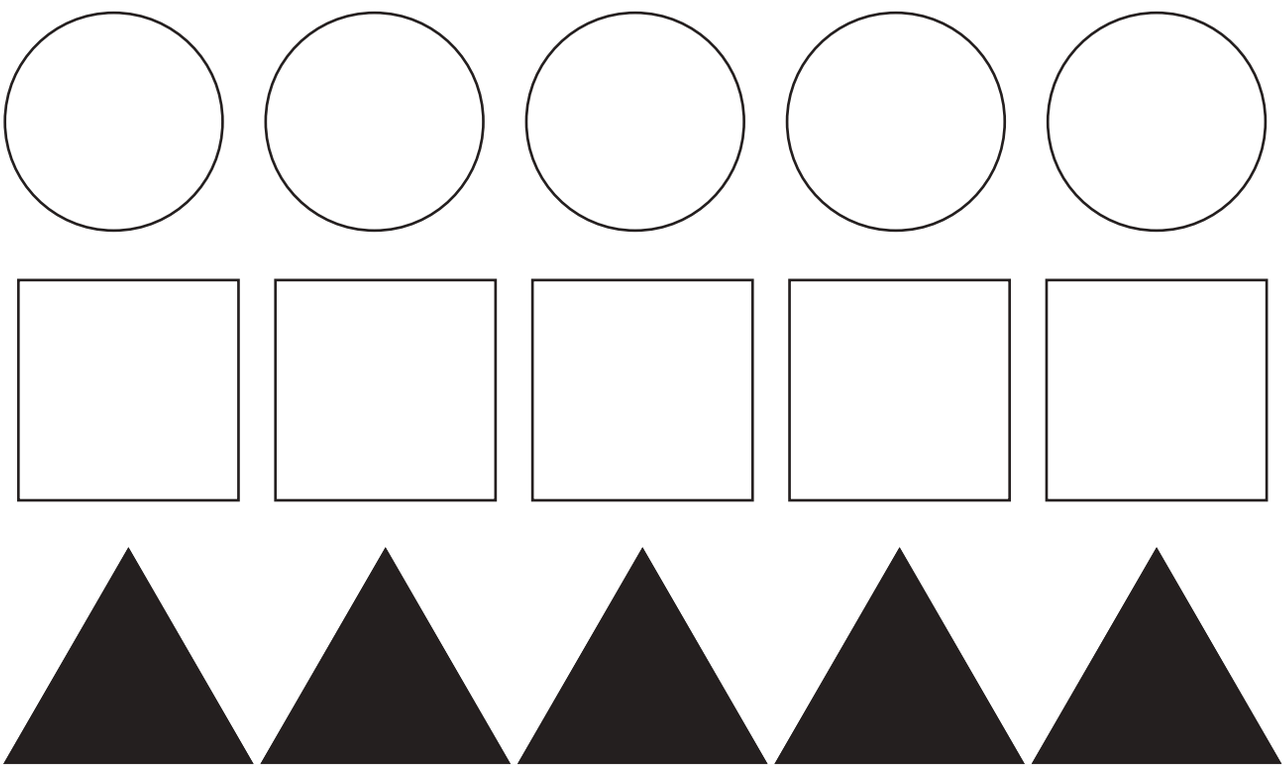

しながわ・目黒こどもスクール

※1. このプリントは、しながわ・目黒こどもスクールのウェブサイトでダウンロードができます。無断複写・引用はご遠慮ください。
※2. このプリントを活用したオンライン授業のスケジュールは、しながわ・目黒こどもスクールのウェブサイトでご確認ください。

ICT 教育の小学校受験
しながわ・目黒こどもスクール
© こどもスクール Ltd.

言語：はじめの音 14

①はじめの音が「さ・し・す・せ・そ」の絵をすべて選んで△をつけます。
②はじめの音が「ば・び・ぶ・べ・ぼ」の絵をすべて選んで○をつけます。


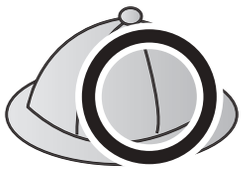

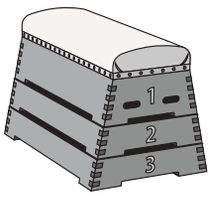









※1. このプリントは、しながわ・目黒こどもスクールのウェブサイトでダウンロードができます。無断複写・引用はご遠慮ください。
※2. このプリントを活用したオンライン授業のスケジュールは、しながわ・目黒こどもスクールのウェブサイトでご確認ください。

© こどもスクール ltd.

おうちで、やろう。 年中児版

Study at home. 小学校受験の家庭学習教材

処理：計数 20

左の四角の中の絵を数えて、その数だけ右の四角に〇をかきます。時間を意識して、できるだけ早く数えましょう。



▶ 〇×7



▶ 〇×9

▶ 〇×10



▶ 〇×12

※1. このプリントは、しながわ・目黒こどもスクールのウェブサイトでダウンロードができます。無断複写・引用はご遠慮ください。
※2. このプリントを活用したオンライン授業のスケジュールは、しながわ・目黒こどもスクールのウェブサイトでご確認ください。

ICT 教育の小学校受験
しながわ・目黒こどもスクール
© こどもスクール Ltd.

おうちで、やろう。

Study at home. 小学校受験の家庭学習教材

図形：折り重ね１

太い四角の中の形を黒い線で矢印の方向に折った時の見え方を考えます。正しいものを右の四角から選んで○をつけます。

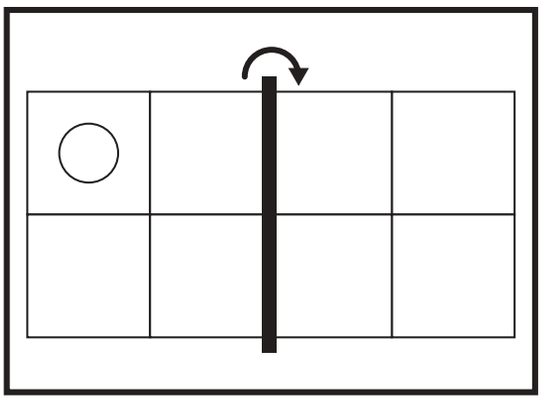

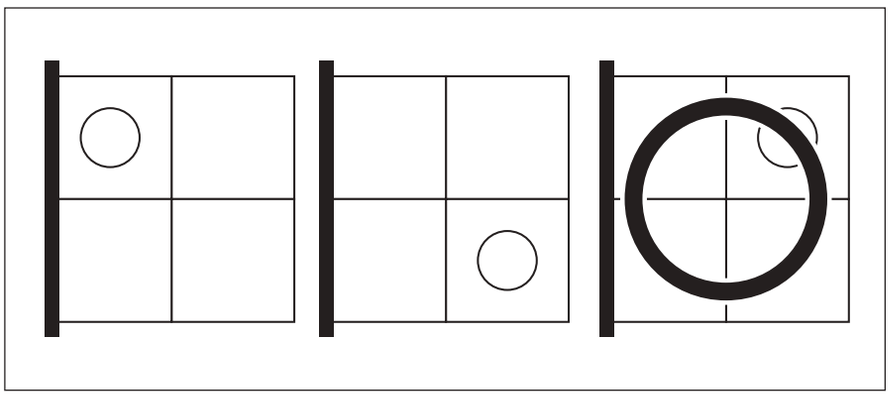

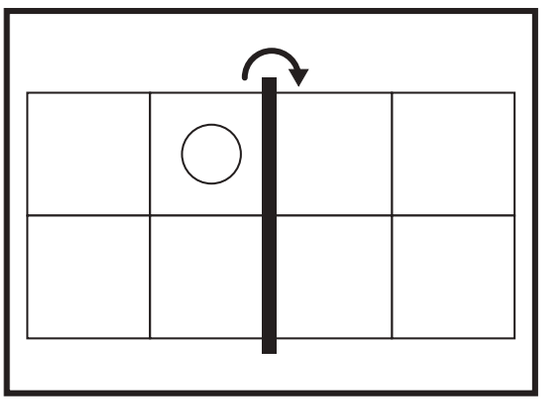

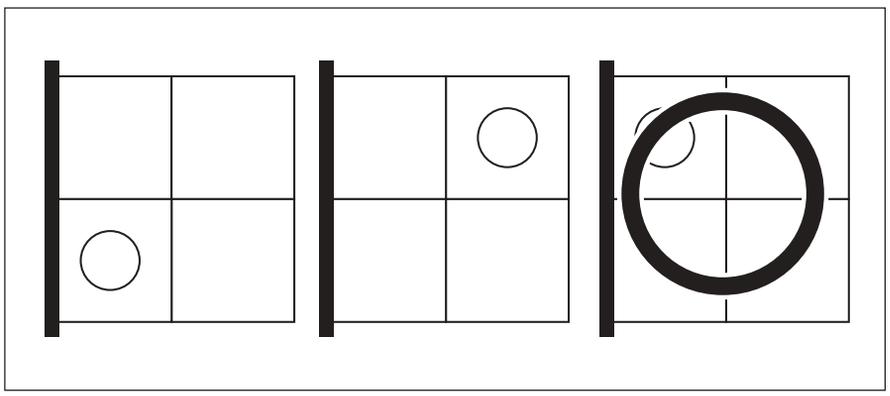

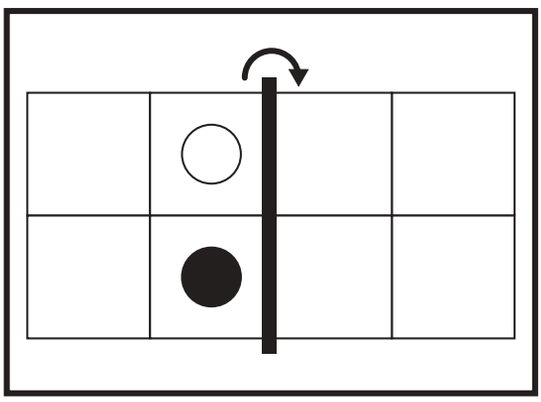

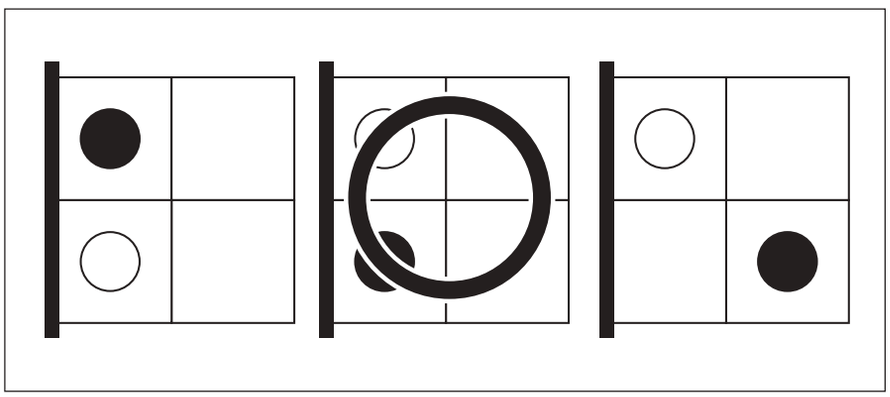

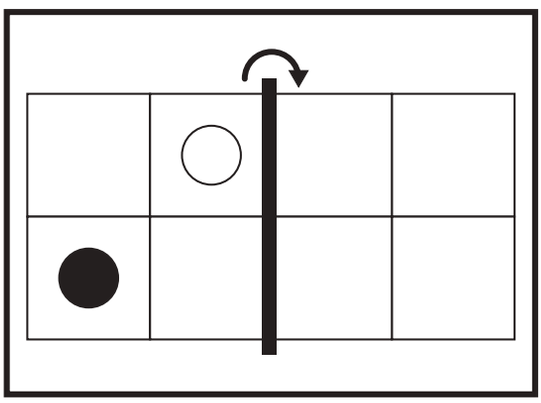

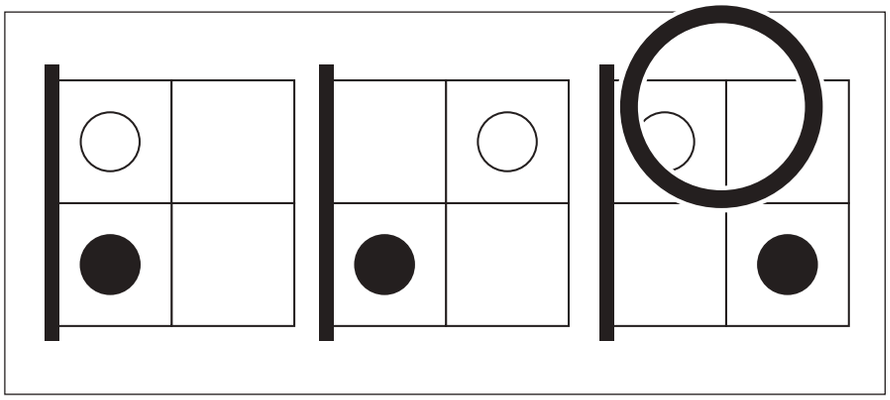

※1. このプリントは、しながわ・目黒こどもスクールのウェブサイトでダウンロードができます。無断複写・引用はご遠慮ください。
※2. このプリントを活用したオンライン授業のスケジュールは、しながわ・目黒こどもスクールのウェブサイトでご確認ください。

ICT 教育の小学校受験
しながわ・目黒こどもスクール
© こどもスクール ltd.

おうちで、やろう。

Study at home. 小学校受験の家庭学習教材

図形：折り重ね２

太い四角の中の形を黒い線で矢印の方向に折った時の見え方を考えます。正しいものを右の四角から選んで○をつけます。

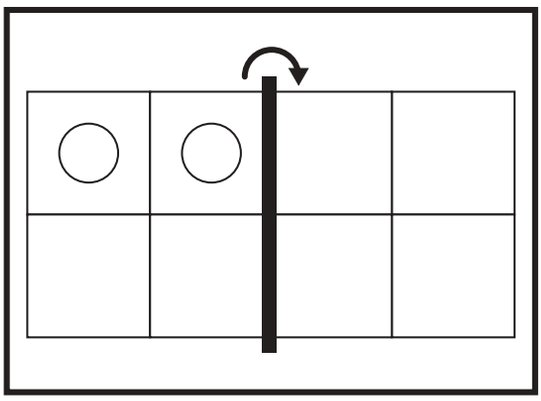

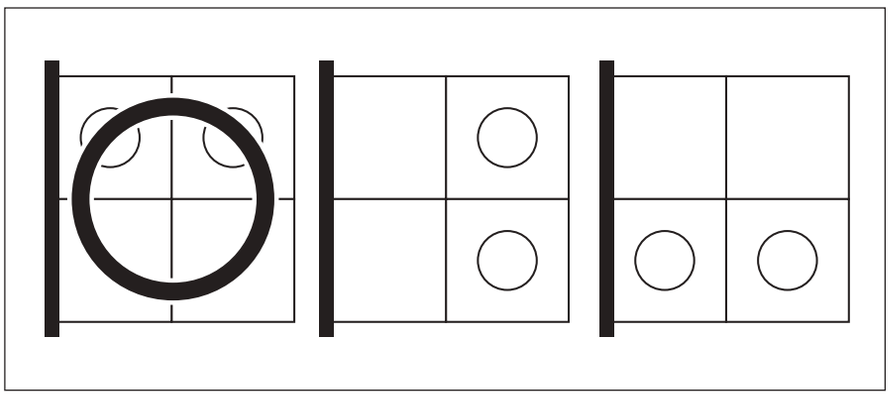

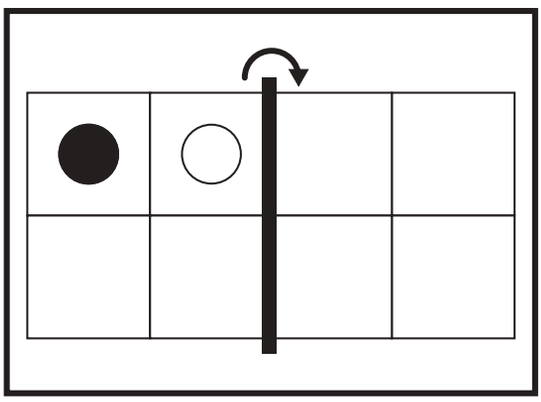

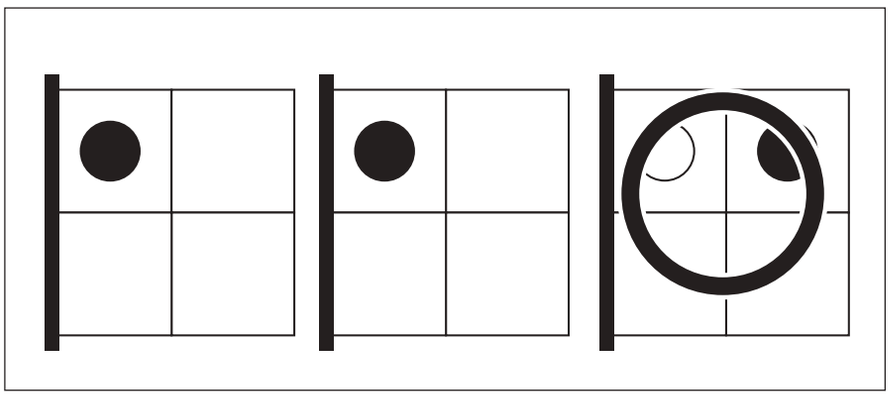

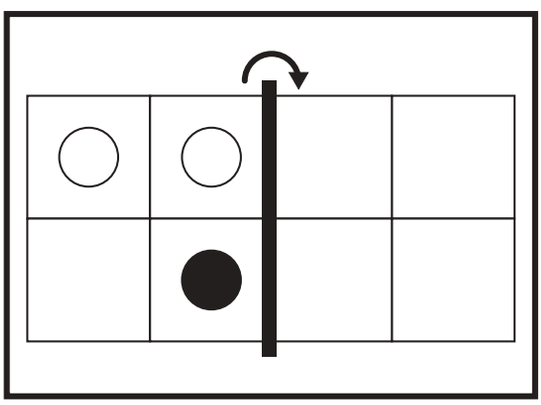

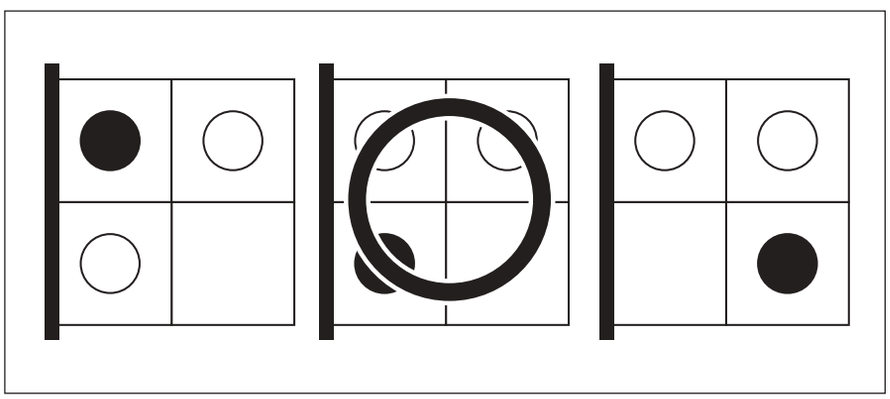

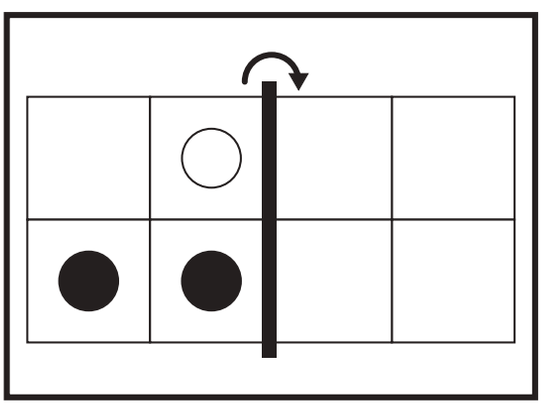

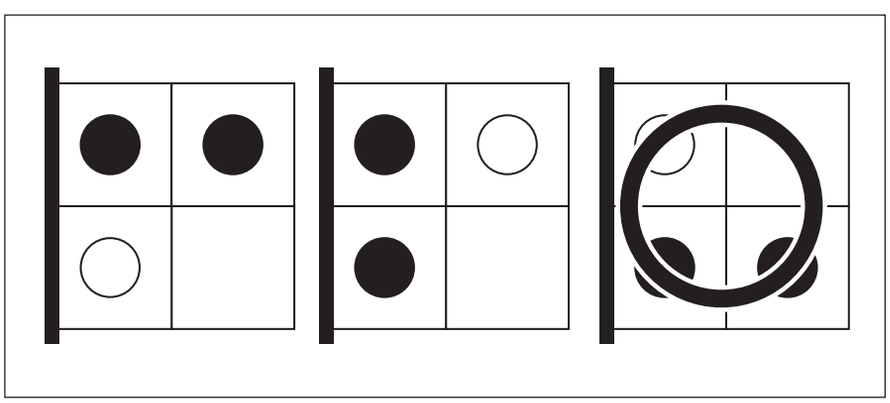

※1. このプリントは、しながわ・目黒こどもスクールのウェブサイトでダウンロードができます。無断複写・引用はご遠慮ください。
※2. このプリントを活用したオンライン授業のスケジュールは、しながわ・目黒こどもスクールのウェブサイトでご確認ください。

ICT 教育の小学校受験
しながわ・目黒こどもスクール
© こどもスクール ltd.

おうちで、やろう。年中児版

Study at home. 小学校受験の家庭学習教材

数量：ちがう数４

左にある二つの四角の中にある食べ物は数がいくつ違うかを考えてその数だけ右の四角に〇をかきます。



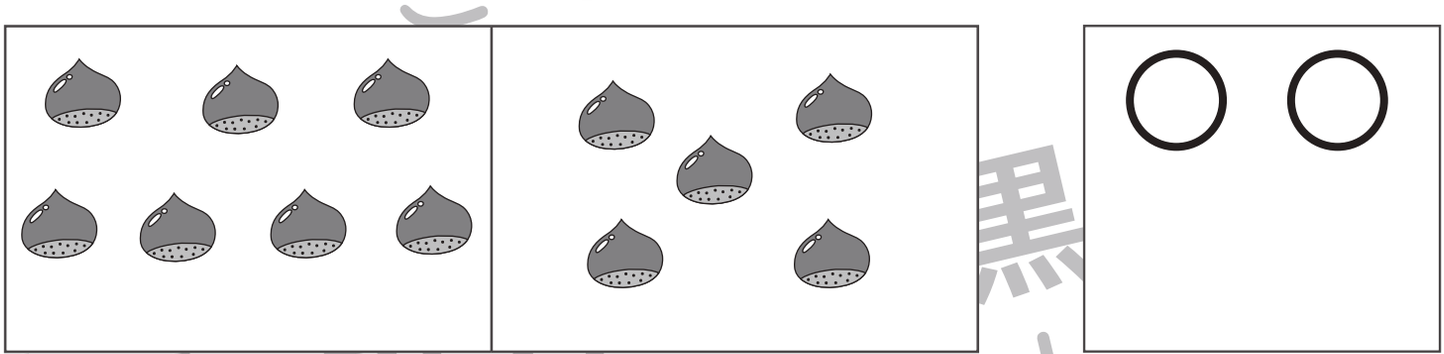

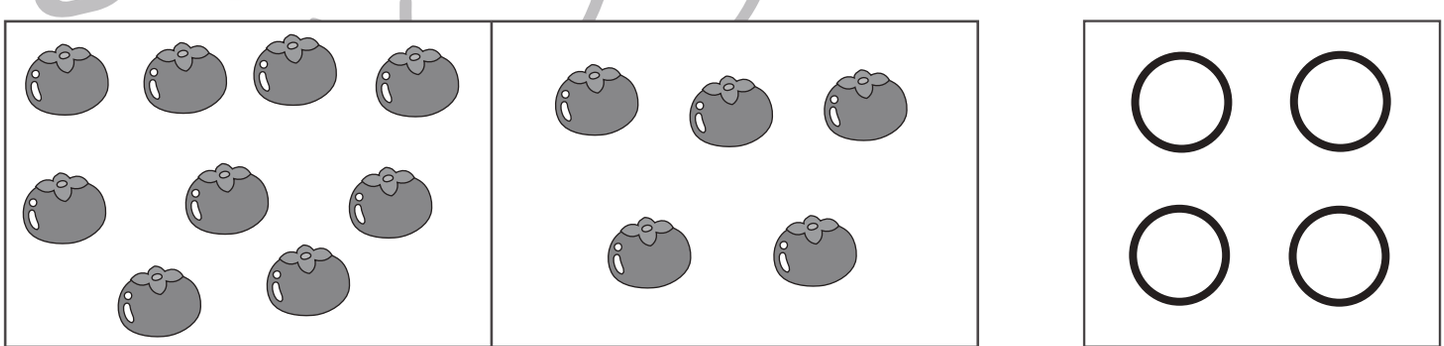



しながわ・目黒こどもスクール

※1. このプリントは、しながわ・目黒こどもスクールのウェブサイトでダウンロードができます。無断複写・引用はご遠慮ください。
※2. このプリントを活用したオンライン授業のスケジュールは、しながわ・目黒こどもスクールのウェブサイトでご確認ください。

ICT 教育の小学校受験
しながわ・目黒こどもスクール
© こどもスクール Ltd.

おうちで、やろう。年中児版

Study at home. 小学校受験の家庭学習教材

数量：ちがう数５

左にある二つの四角の中にある食べ物は数がいくつ違うかを考えてその数だけ右の四角に○をかきます。

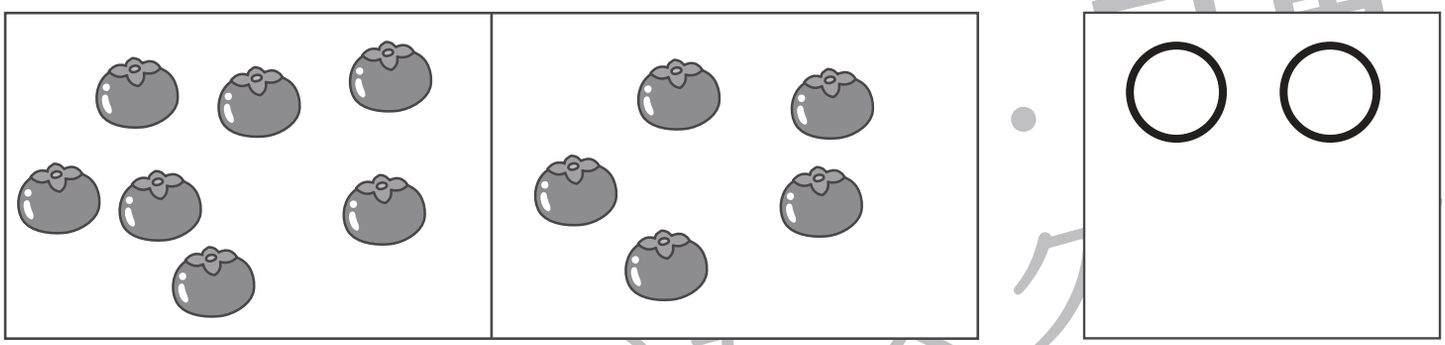

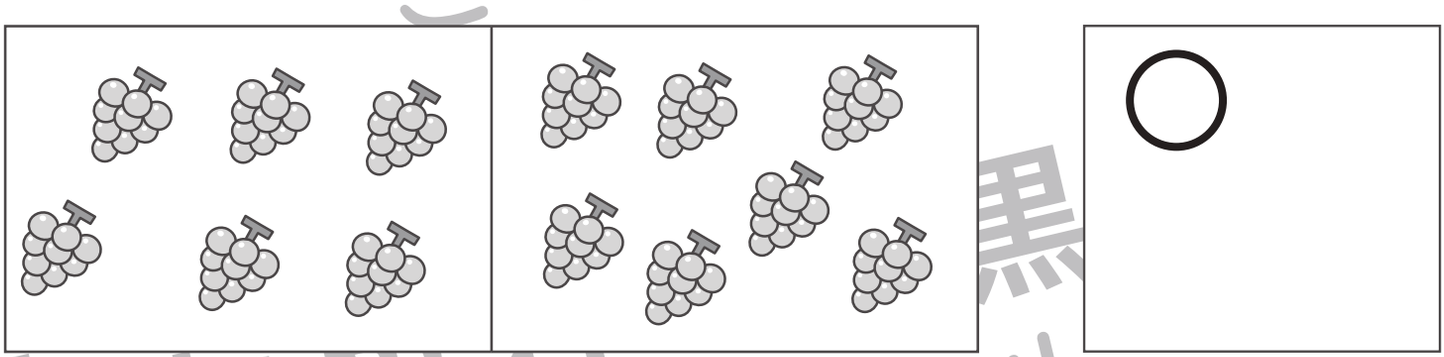



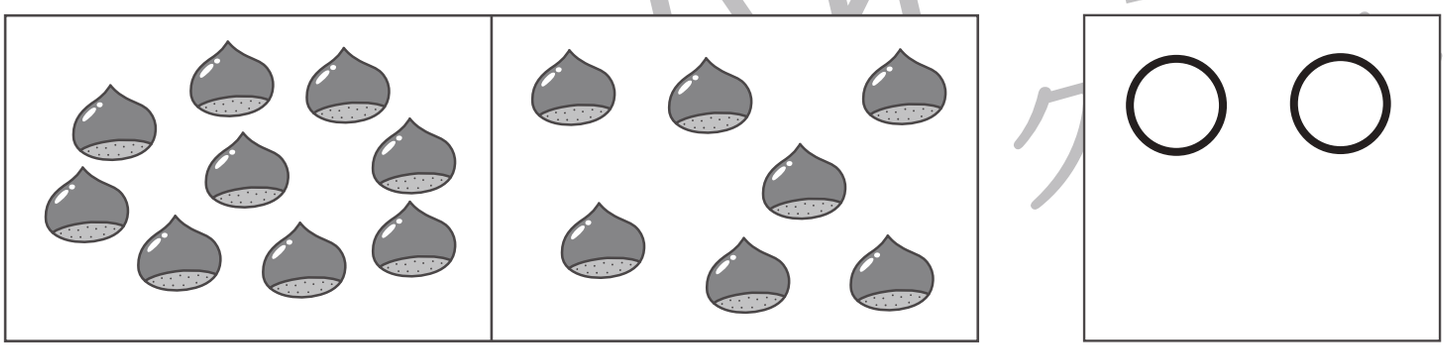

※1. このプリントは、しながわ・目黒こどもスクールのウェブサイトでダウンロードができます。無断複写・引用はご遠慮ください。
※2. このプリントを活用したオンライン授業のスケジュールは、しながわ・目黒こどもスクールのウェブサイトでご確認ください。

ICT 教育の小学校受験
しながわ・目黒こどもスクール
© こどもスクール ltd.

おうちで、やろう。年中児版

Study at home. 小学校受験の家庭学習教材

数量：加減 30

上の四角が約束です。
太い四角の中のあめを、その隣の四角の中の人が約束の数だけもらいます。このとき残っているあめはいくつになりますか。
その数だけ右の四角に○をかきます。









※1. このプリントは、しながわ・目黒こどもスクールのウェブサイトでダウンロードができます。無断複写・引用はご遠慮ください。
※2. このプリントを活用したオンライン授業のスケジュールは、しながわ・目黒こどもスクールのウェブサイトでご確認ください。

ICT 教育の小学校受験
しながわ・目黒こどもスクール
© こどもスクール ltd.