おうちで、やろう。

Study at home. 小学校受験の家庭学習教材

指示の聞き取り 11

下記の問題に答え線をきれいに素早くなぞりましょう。
①一番長い線を青で、一番短い線を緑でなぞります。　②2 番目に長い線を茶色で、２番目に短い線を黒でなぞります。
③一番長い線は赤で、同じ長さの線は鉛筆でなぞります。

①

緑

青

②

黒

茶色

③

赤

鉛筆

鉛筆

※1. このプリントは、しながわ・目黒こどもスクールのウェブサイトでダウンロードができます。無断複写・引用はご遠慮ください。
※2. このプリントを活用したオンライン授業のスケジュールは、しながわ・目黒こどもスクールのウェブサイトでご確認ください。

おうちで、やろう。

Study at home. 小学校受験の家庭学習教材

図形：重ね３

上の２枚の板は透明です。この２枚の板を重ねたときの見え方を考えて下の四角にかきます。



※1. このプリントは、しながわ・目黒こどもスクールのウェブサイトでダウンロードができます。無断複写・引用はご遠慮ください。
※2. このプリントを活用したオンライン授業のスケジュールは、しながわ・目黒こどもスクールのウェブサイトでご確認ください。

ICT教育の小学校受験
しながわ・目黒こどもスクール
© こどもスクール Ltd.

おうちで、やろう。

Study at home. 小学校受験の家庭学習教材

図形：重ね7

上の２枚の板は透明です。この２枚の板を重ねたときの見え方を考えて下の四角にかきます。

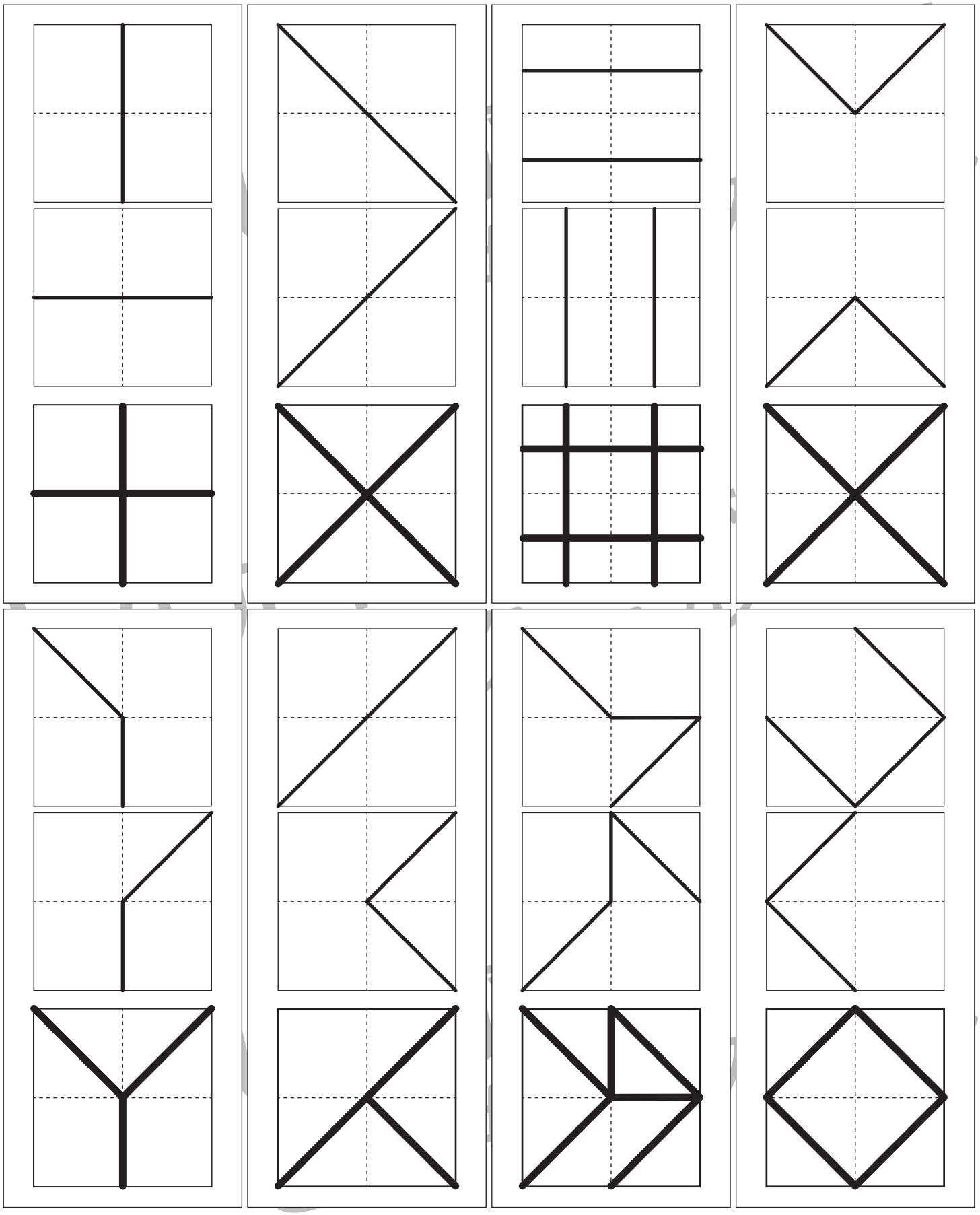

※1. このプリントは、しながわ・目黒こどもスクールのウェブサイトでダウンロードができます。無断複写・引用はご遠慮ください。
※2. このプリントを活用したオンライン授業のスケジュールは、しながわ・目黒こどもスクールのウェブサイトでご確認ください。

ICT 教育の小学校受験
しながわ・目黒
こどもスクール
© こどもスクール Ltd.

推理：重さ３

３つのぬいぐるみをシーソーを使って重さ比べをしました。
一番重いぬいぐるみには○を、一番軽いぬいぐるみには△をつけます。







※1. このプリントは、しながわ・目黒こどもスクールのウェブサイトでダウンロードができます。無断複写・引用はご遠慮ください。
※2. このプリントを活用したオンライン授業のスケジュールは、しながわ・目黒こどもスクールのウェブサイトでご確認ください。

ICT教育の小学校受験
しながわ・目黒こどもスクール
© こどもスクール Ltd.

推理：重さ４

３つのぬいぐるみをシーソーを使って重さ比べをしました。
２番目に重いぬいぐるみに○をつけます。







※1. このプリントは、しながわ・目黒こどもスクールのウェブサイトでダウンロードができます。無断複写・引用はご遠慮ください。
※2. このプリントを活用したオンライン授業のスケジュールは、しながわ・目黒こどもスクールのウェブサイトでご確認ください。

ICT教育の小学校受験
しながわ・目黒こどもスクール
© こどもスクール Ltd.

おうちで、やろう。

Study at home. 小学校受験の家庭学習教材

数量：サイコロ１

サイコロは表の目と裏の目の数を合わせると７になります。それぞれの四角の中のサイコロの目が表のとき、裏の目を考えてその数だけ下の四角に○をかきます。



○×１



○×３



○×２



○×５

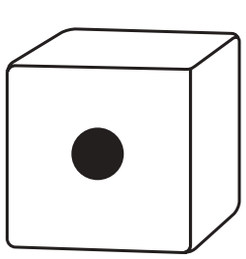

○×６



○×４

※１. このプリントは、しながわ・目黒こどもスクールのウェブサイトでダウンロードができます。無断複写・引用はご遠慮ください。
※２. このプリントを活用したオンライン授業のスケジュールは、しながわ・目黒こどもスクールのウェブサイトでご確認ください。

ICT 教育の小学校受験
しながわ・目黒こどもスクール
© こどもスクール ltd.

数量：サイコロ２

サイコロは表の目と裏の目の数を合わせると７になります。それぞれの四角の中の２つのサイコロの目が表のとき、裏の目を合わせるといくつになりますか。その数だけ下の四角に○をかきます。



○×３



○×７



○×６



○×10



○×７



○×９

※1. このプリントは、しながわ・目黒こどもスクールのウェブサイトでダウンロードができます。無断複写・引用はご遠慮ください。
※2. このプリントを活用したオンライン授業のスケジュールは、しながわ・目黒こどもスクールのウェブサイトでご確認ください。