おうちで、やろう。

Study at home. 小学校受験の家庭学習教材

記憶：絵の記憶 11　記憶用紙

別紙『記憶－絵の記憶 11』を行う際に使用します。記憶用紙は点線で折って（切って）、①、②の問題の際にそれぞれ 20 秒間ずつ記憶させてください。記憶する際は問題用紙は裏返しにします。記憶後①、②それぞれの問題に答えましょう。

①イルカのいたマスを紫のクーピーで塗ります。

②トウモロコシのあったマスを緑のクーピーで塗ります。

※2025 年 2 月 27 日（木）のオンライン授業では実施中に記憶する絵を画面で表示します。

①



②



しながわ・目黒こどもスクール

※1. このプリントは、しながわ・目黒こどもスクールのウェブサイトでダウンロードができます。無断複写・引用はご遠慮ください。
※2. このプリントを活用したオンライン授業のスケジュールは、しながわ・目黒こどもスクールのウェブサイトでご確認ください。

ICT 教育の小学校受験
しながわ・目黒こどもスクール
© こどもスクール ltd.

おうちで、やろう。

Study at home. 小学校受験の家庭学習教材

記憶：絵の記憶 11

別紙『記憶－絵の記憶 11 記憶用紙』を使用します。記憶用紙の形を見た後に①、②の問題に取り組みましょう。

①

②

しながわ・目黒こどもスクール

※1. このプリントは、しながわ・目黒こどもスクールのウェブサイトでダウンロードができます。無断複写・引用はご遠慮ください。
※2. このプリントを活用したオンライン授業のスケジュールは、しながわ・目黒こどもスクールのウェブサイトでご確認ください。

ICT 教育の小学校受験
しながわ・目黒こどもスクール
© こどもスクール ltd.

おうちで、やろう。

Study at home. 小学校受験の家庭学習教材

常識：行事２

左上の太い四角の中の行事と関係のあるものを見つけて〇をつけます。



※1. このプリントは、しながわ・目黒こどもスクールのウェブサイトでダウンロードができます。無断複写・引用はご遠慮ください。
※2. このプリントを活用したオンライン授業のスケジュールは、しながわ・目黒こどもスクールのウェブサイトでご確認ください。

ICT 教育の小学校受験
しながわ・目黒
こどもスクール
© こどもスクール Ltd.

おうちで、やろう。

Study at home. 小学校受験の家庭学習教材

推理：影５

左の四角の中には、絵が影になって重なっています。右の四角の中で、左の四角の中にない絵を見つけて○をつけます。











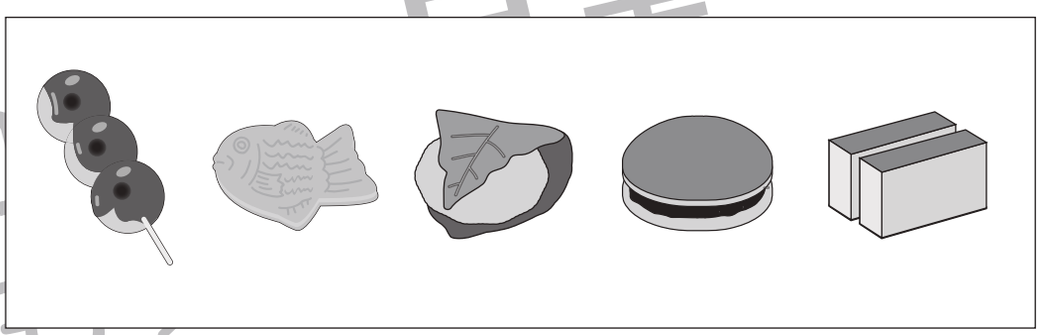





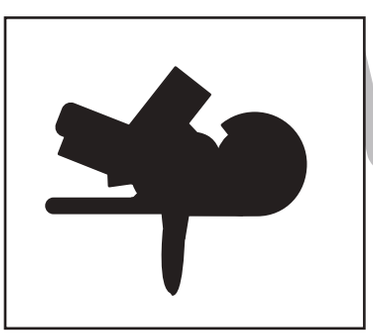

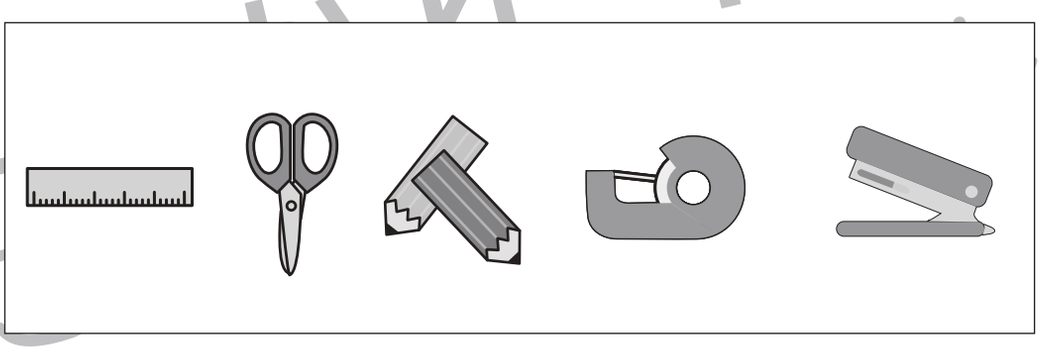

※1. このプリントは、しながわ・目黒こどもスクールのウェブサイトでダウンロードができます。無断複写・引用はご遠慮ください。
※2. このプリントを活用したオンライン授業のスケジュールは、しながわ・目黒こどもスクールのウェブサイトでご確認ください。

ICT 教育の小学校受験
しながわ・目黒こどもスクール
© こどもスクール ltd.

推理：重さ7

バネを使って重さ比べをしました。一番重いボールに○をつけます。

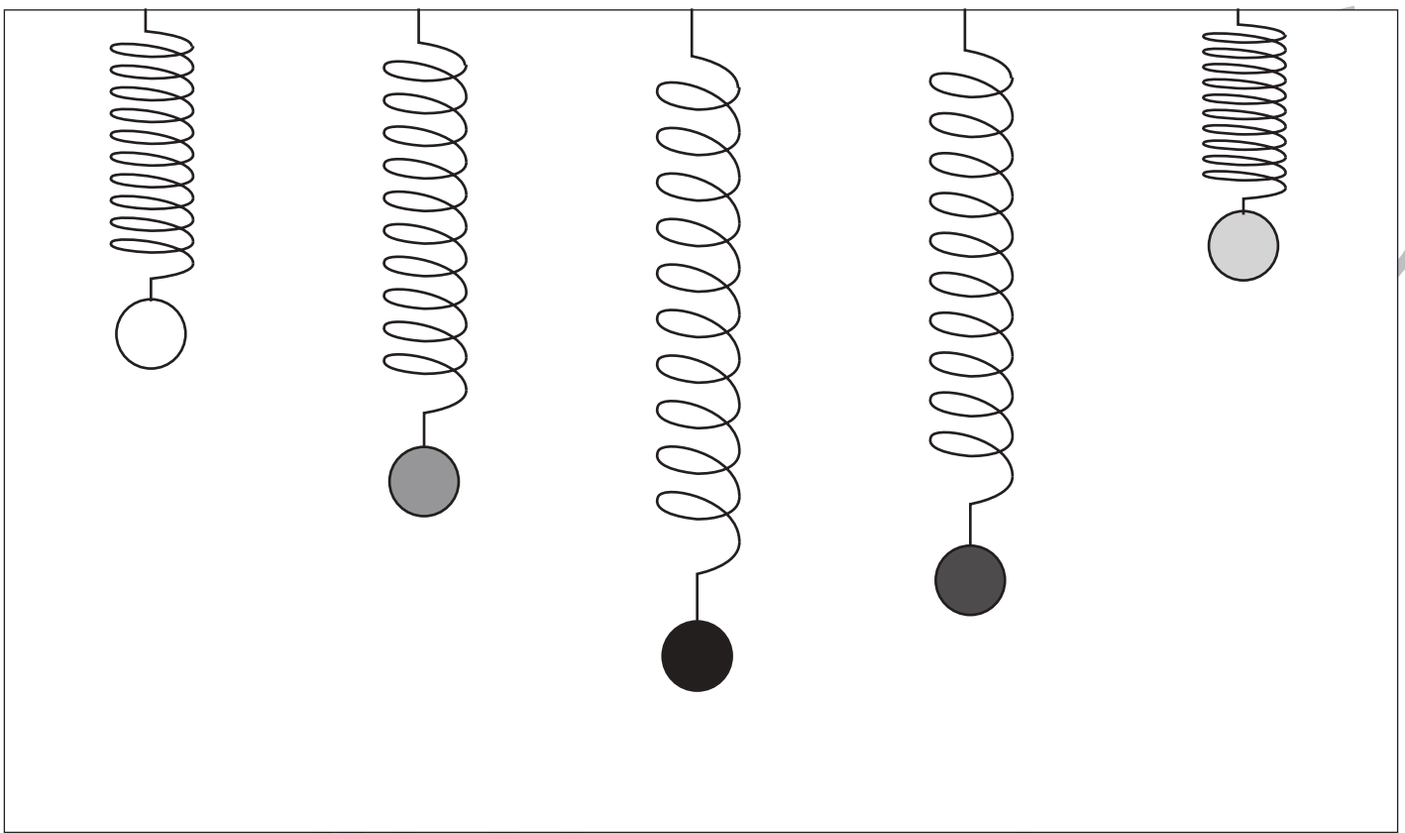

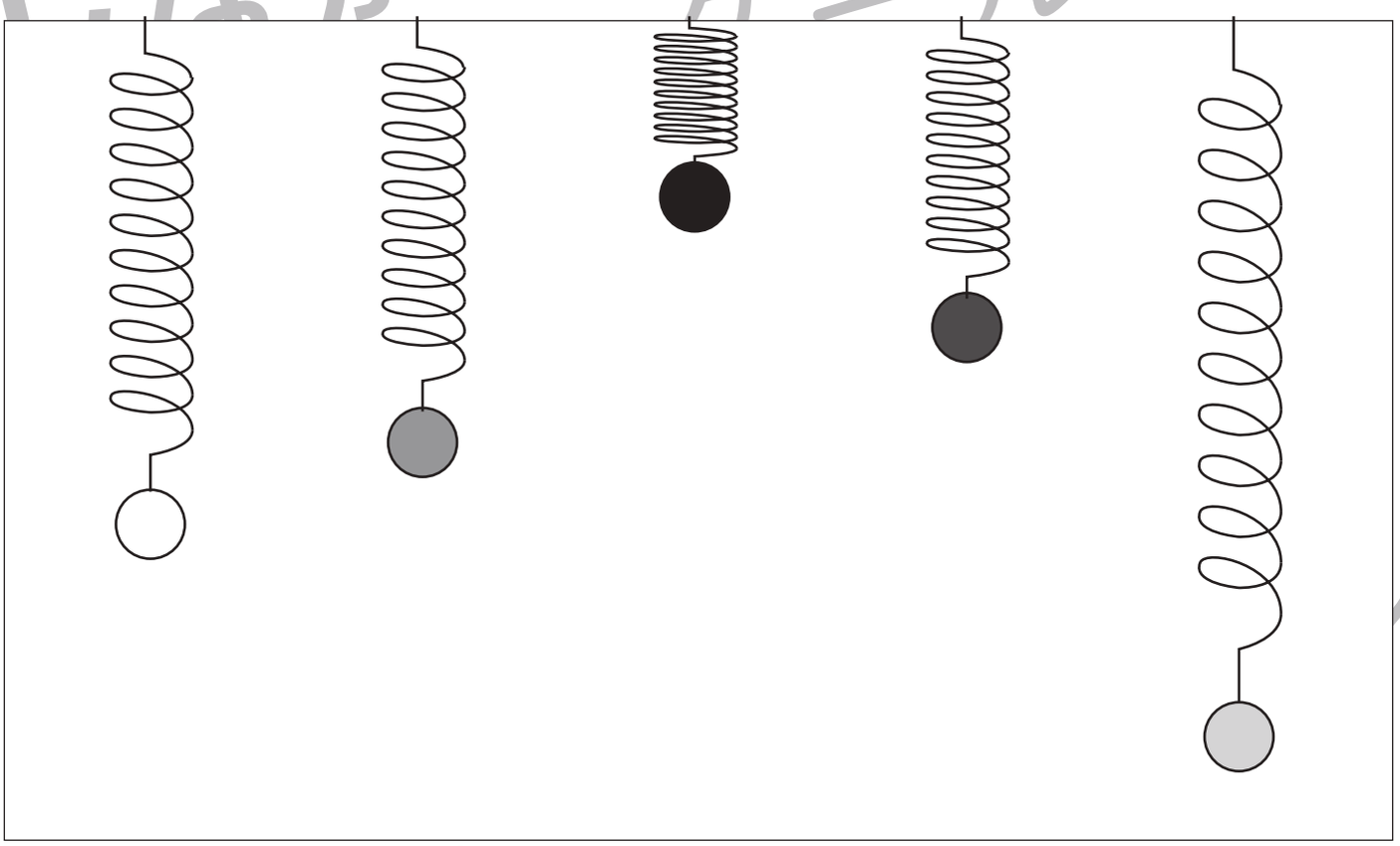

※1. このプリントは、しながわ・目黒こどもスクールのウェブサイトでダウンロードができます。無断複写・引用はご遠慮ください。
※2. このプリントを活用したオンライン授業のスケジュールは、しながわ・目黒こどもスクールのウェブサイトでご確認ください。

ICT 教育の小学校受験
しながわ・目黒こどもスクール
© こどもスクール ltd.

推理：重さ8

バネを使って重さ比べをしました。一番軽いボールに○、一番重いボールに × をつけます。

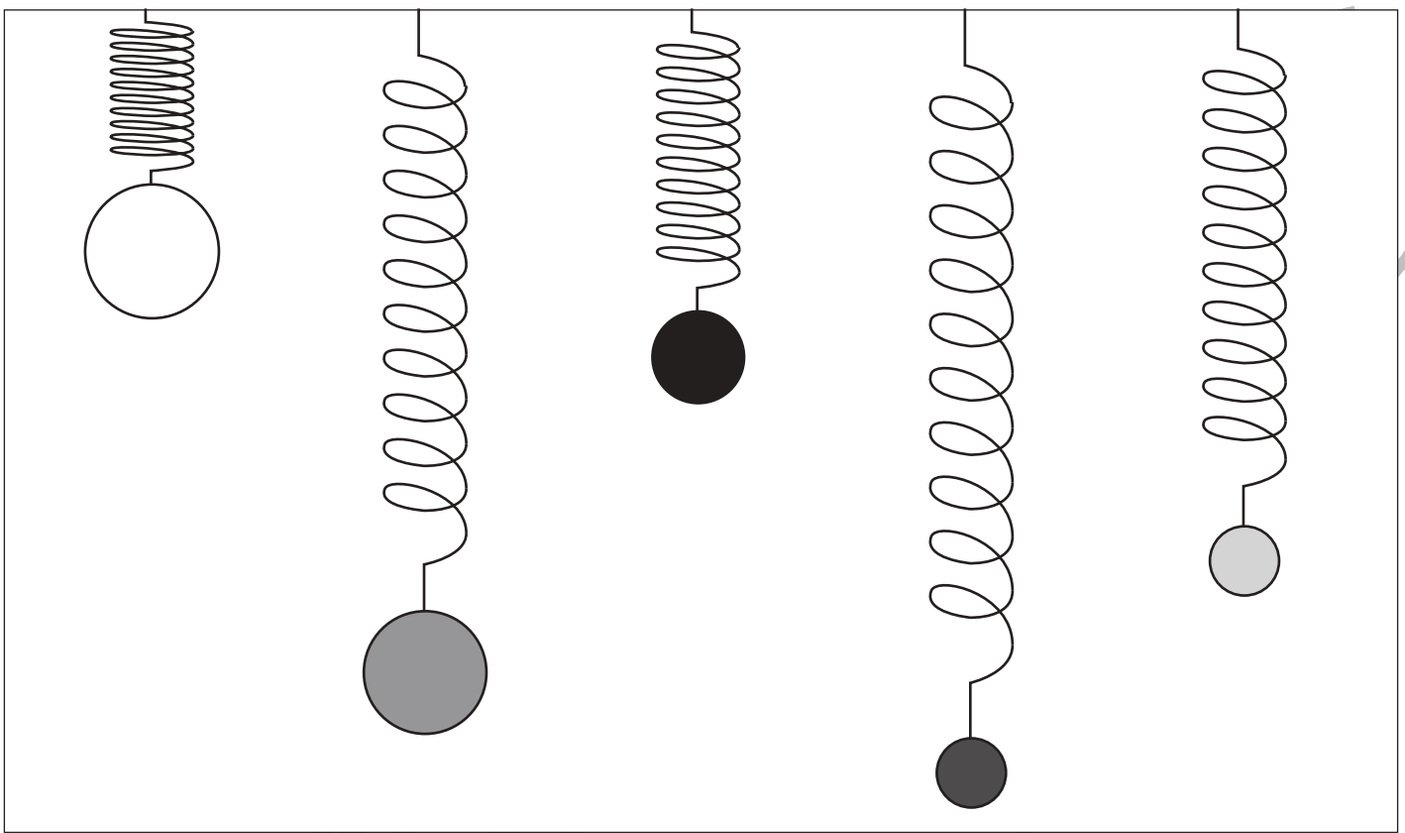

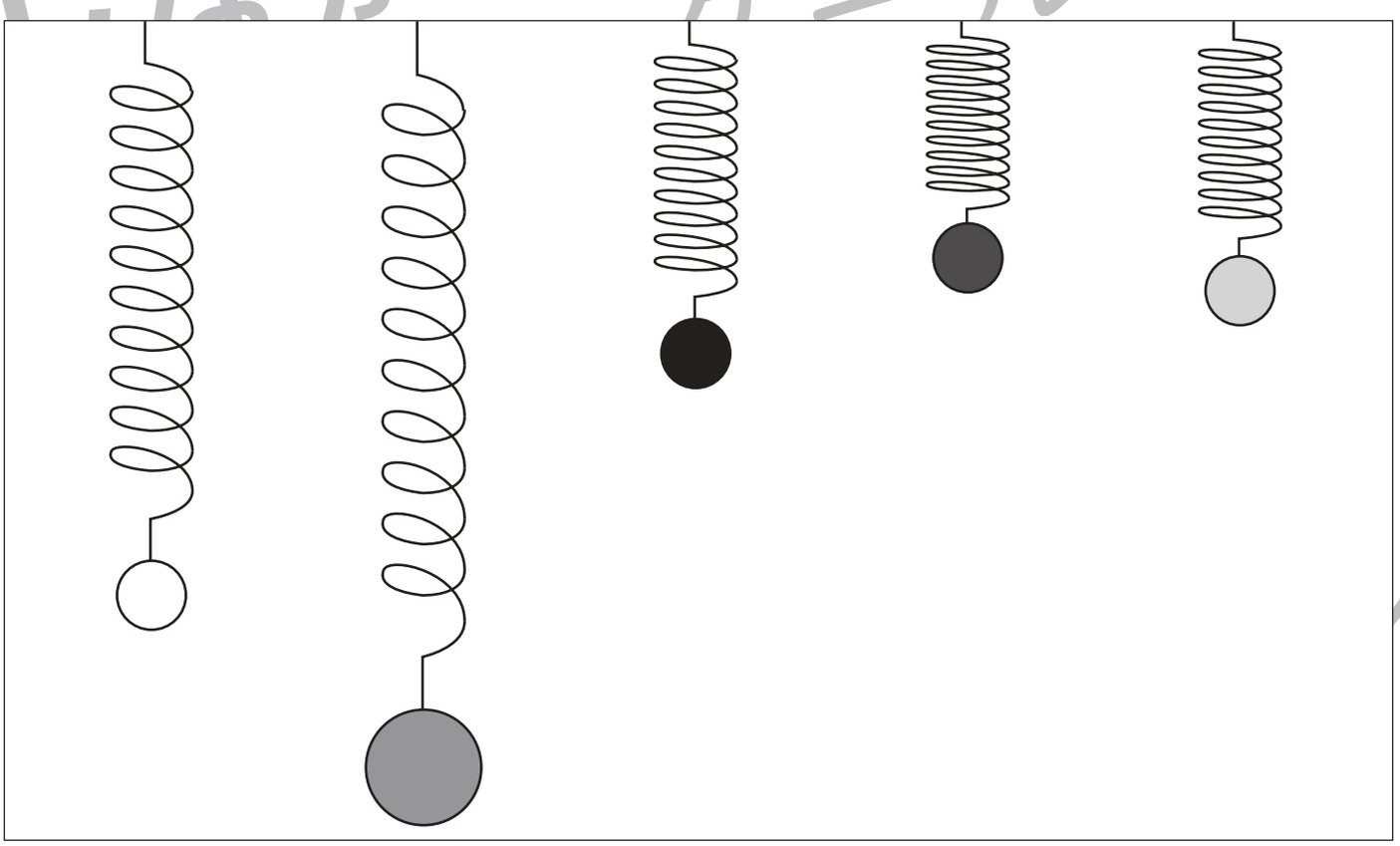

※1. このプリントは、しながわ・目黒こどもスクールのウェブサイトでダウンロードができます。無断複写・引用はご遠慮ください。
※2. このプリントを活用したオンライン授業のスケジュールは、しながわ・目黒こどもスクールのウェブサイトでご確認ください。

© こどもスクール Ltd.

おうちで、やろう。

Study at home. 小学校受験の家庭学習教材

数量：多少６

横に並んだ４つの四角の中で灰色のマスが一番多いものに○一番少ないものに × をつけます。

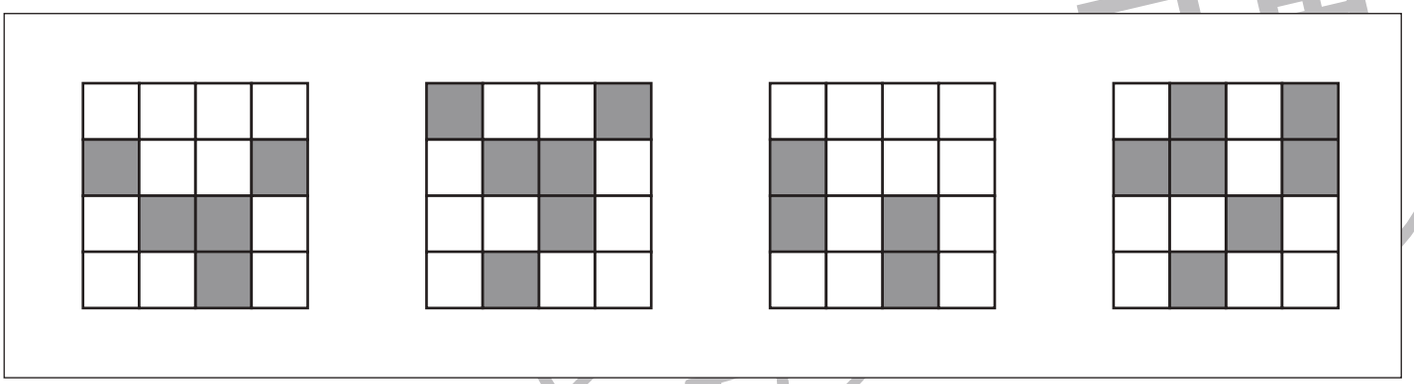

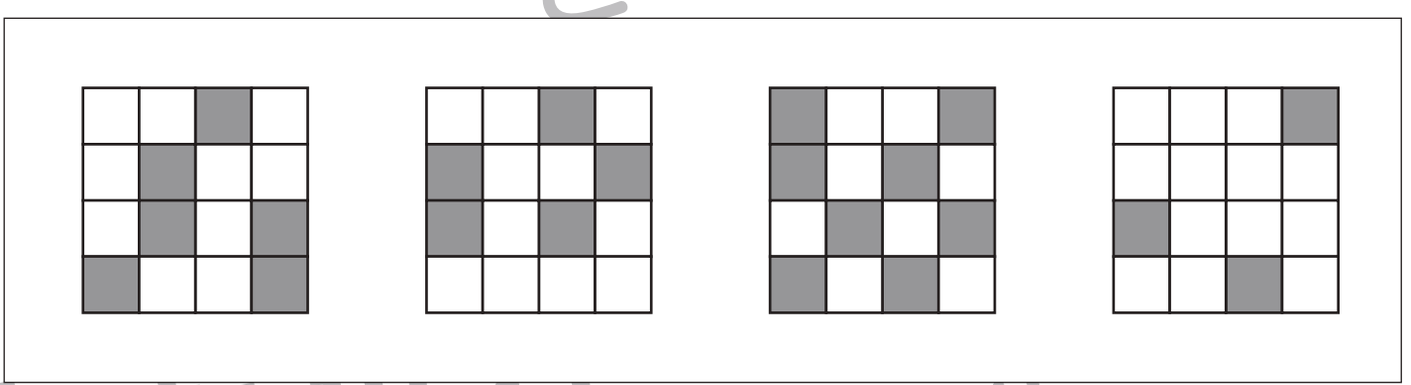

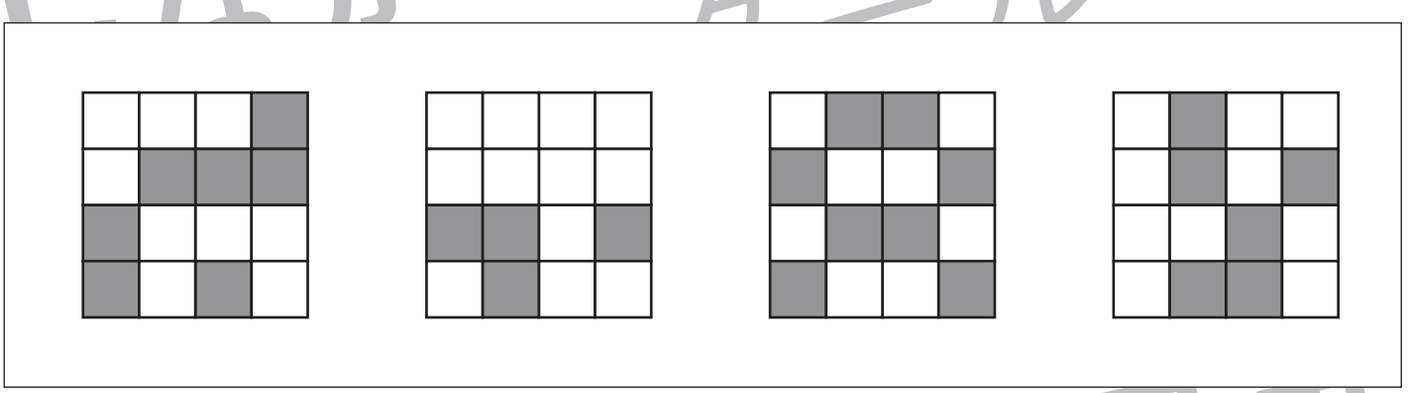

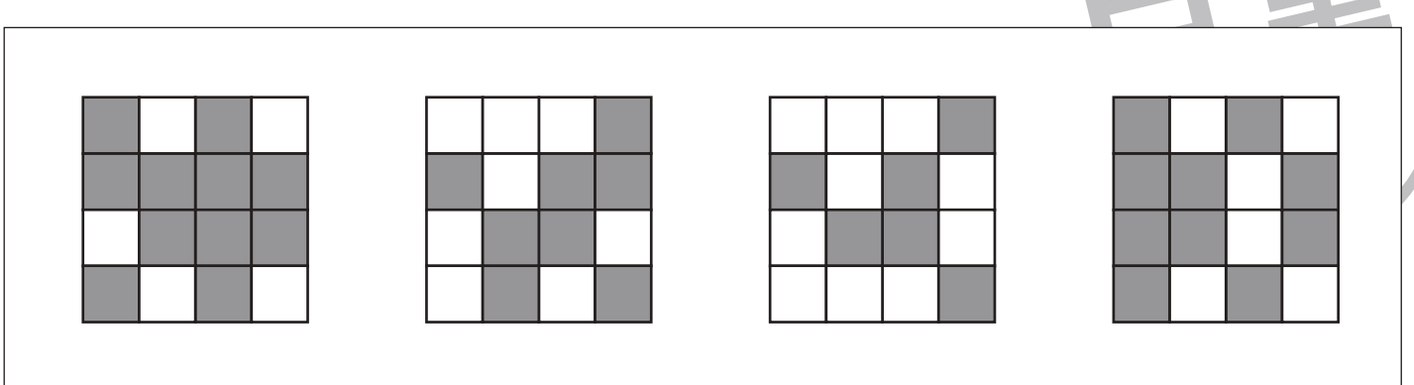

※1. このプリントは、しながわ・目黒こどもスクールのウェブサイトでダウンロードができます。無断複写・引用はご遠慮ください。
※2. このプリントを活用したオンライン授業のスケジュールは、しながわ・目黒こどもスクールのウェブサイトでご確認ください。

ICT 教育の小学校受験
しながわ・目黒こどもスクール
© こどもスクール ltd.

おうちで、やろう。

Study at home. 小学校受験の家庭学習教材

数量：多少 7

横に並んだ４つの四角の中で灰色のマスが一番多いものに○一番少ないものに × をつけます。

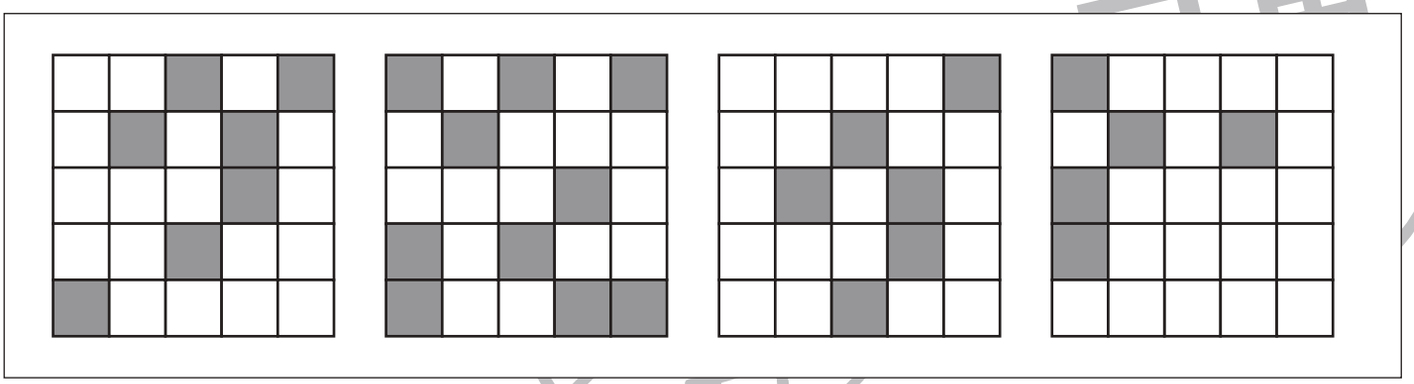

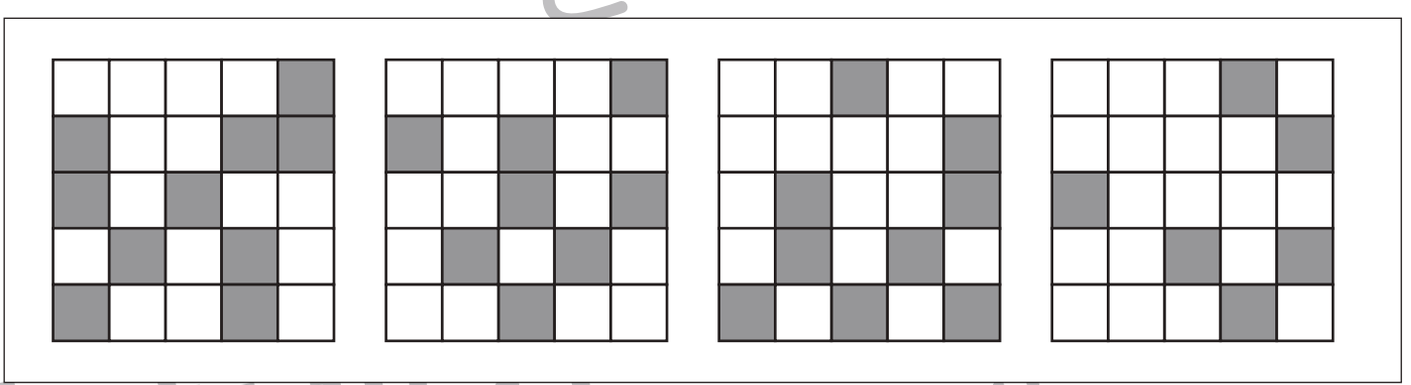

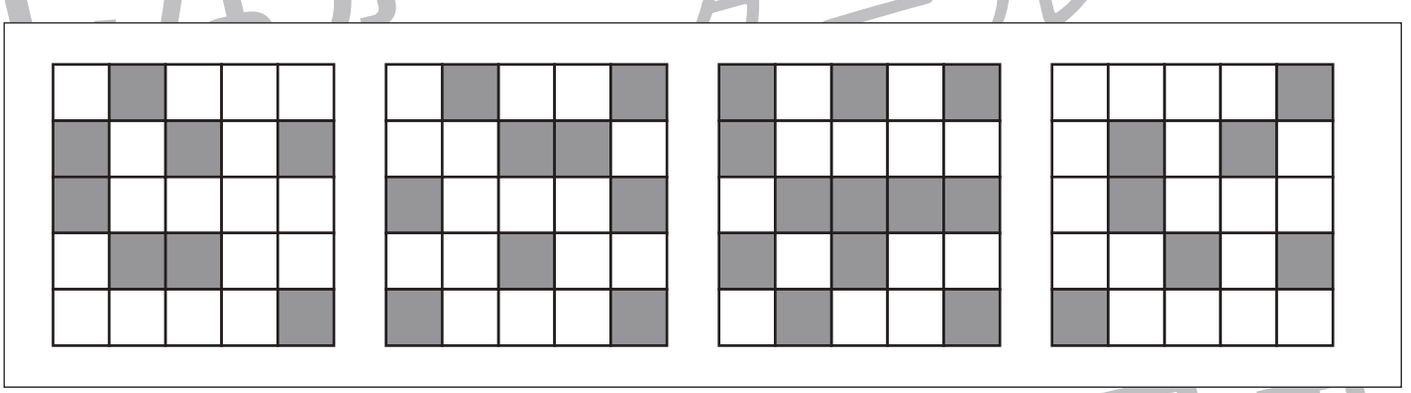

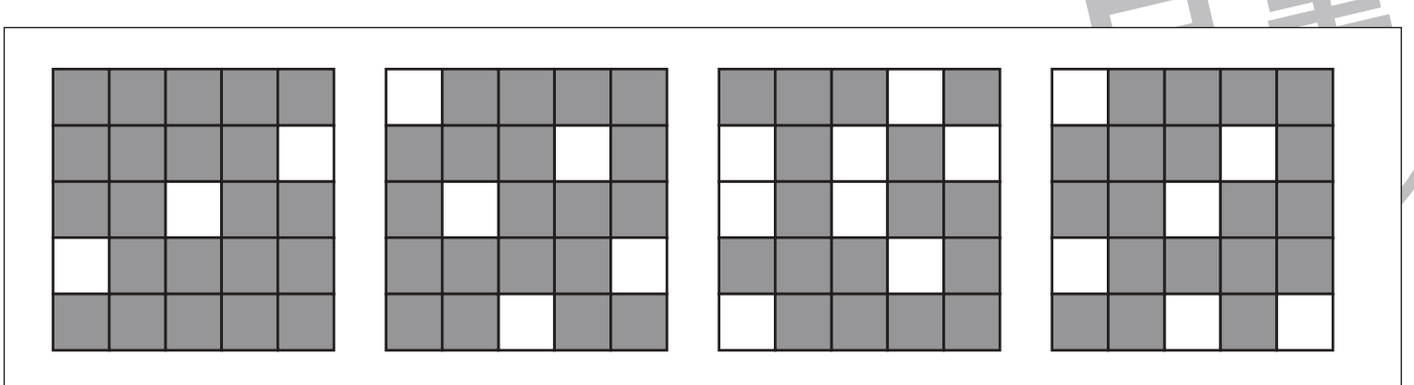

※1. このプリントは、しながわ・目黒こどもスクールのウェブサイトでダウンロードができます。無断複写・引用はご遠慮ください。
※2. このプリントを活用したオンライン授業のスケジュールは、しながわ・目黒こどもスクールのウェブサイトでご確認ください。

ICT 教育の小学校受験
しながわ・目黒こどもスクール
© こどもスクール ltd.

おうちで、やろう。

Study at home. 小学校受験の家庭学習教材

処理：運筆８

白い矢印から黒い矢印まで迷路を進みます。壁にぶつからないようにきれいに素早く線をかきます。（1 分～1 分 30 秒）
※この問題に解答はありません。

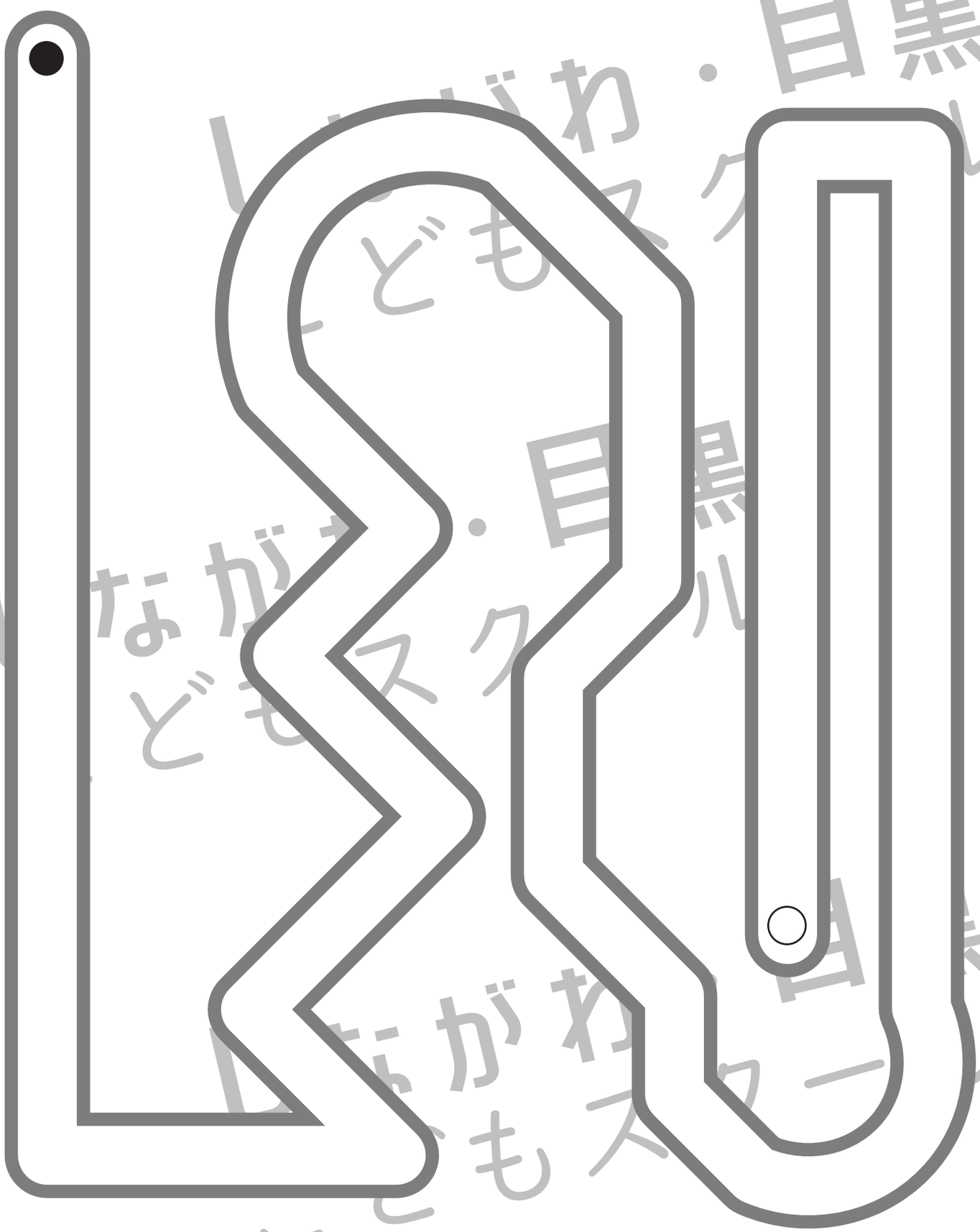

※1. このプリントは、しながわ・目黒こどもスクールのウェブサイトでダウンロードができます。無断複写・引用はご遠慮ください。
※2. このプリントを活用したオンライン授業のスケジュールは、しながわ・目黒こどもスクールのウェブサイトでご確認ください。

ICT 教育の小学校受験
しながわ・目黒こどもスクール
© こどもスクール ltd.