おうちで、やろう。

Study at home. 小学校受験の家庭学習教材

常識：行事３

お話を聞いて下のどの行事の絵のことか考えましょう。
①新しい年を迎え、おせちやお雑煮を食べます。初詣に行ったりします。この行事に○をつけます。
②ひな人形を飾り、女の子の健やかな成長や幸せを願います。この行事に × をつけます。
③織姫と彦星が会うことができる天の川が見られます。この行事に□をつけます。
④恵方巻を食べたり、豆まきをして自分の年齢の数だけ豆を食べます。この行事に◎をつけます。
⑤兜やこいのぼりを飾り、かしわ餅やちまきを食べます。この行事に△をつけます。





※1. このプリントは、しながわ・目黒こどもスクールのウェブサイトでダウンロードができます。無断複写・引用はご遠慮ください。
※2. このプリントを活用したオンライン授業のスケジュールは、しながわ・目黒こどもスクールのウェブサイトでご確認ください。

ICT 教育の小学校受験
しながわ・目黒こどもスクール
© こどもスクール ltd.

おうちで、やろう。

Study at home. 小学校受験の家庭学習教材

図形：回転 20

左のお手本を矢印の方向へ 1 回倒した時の見え方を考えて右の四角にかきます。

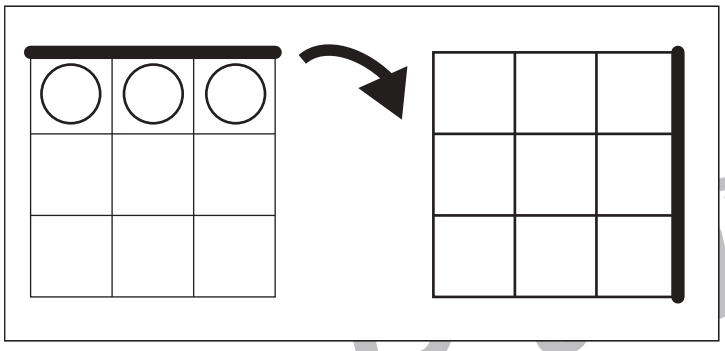

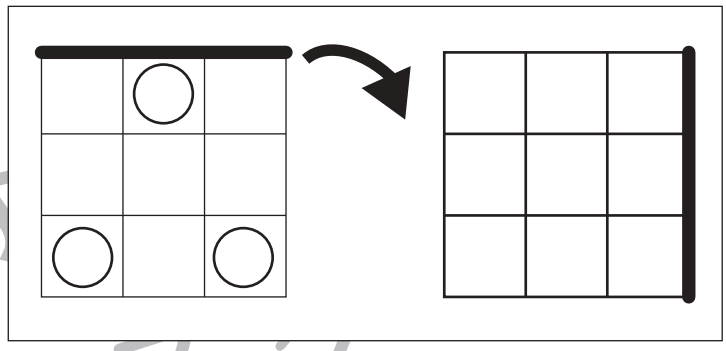

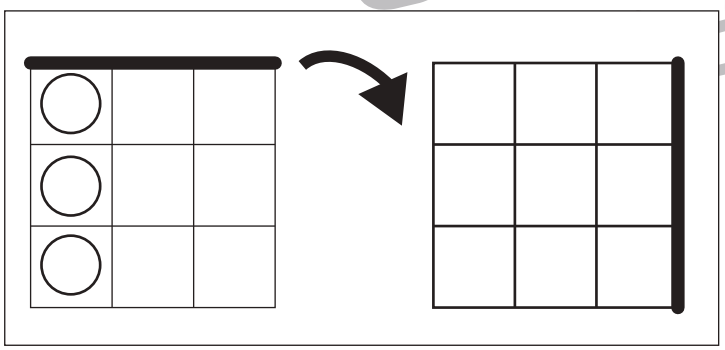

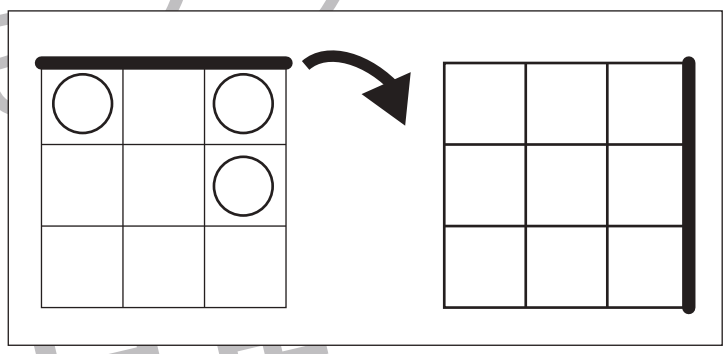

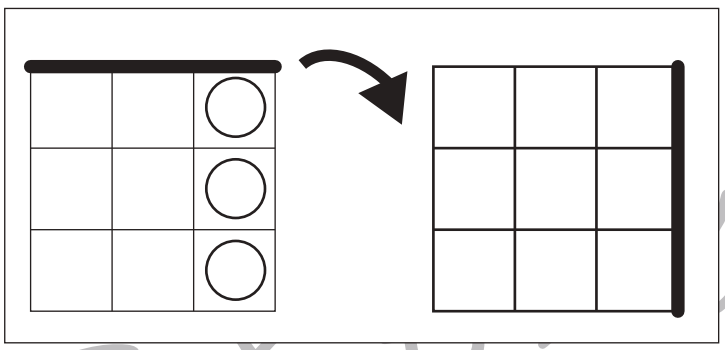

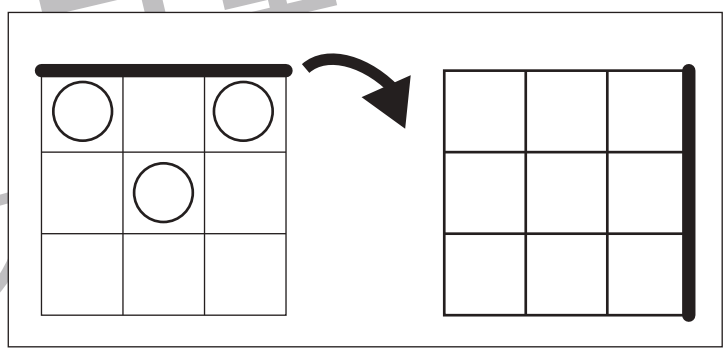

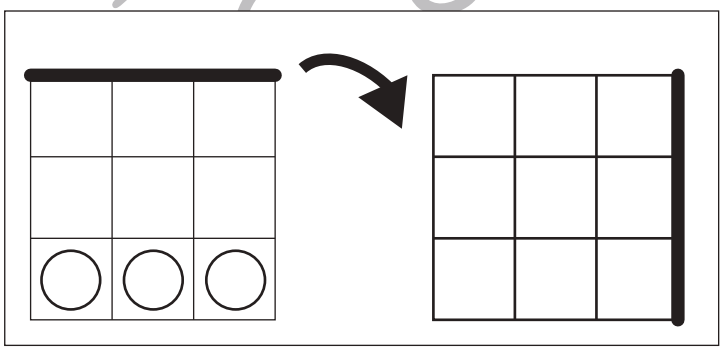

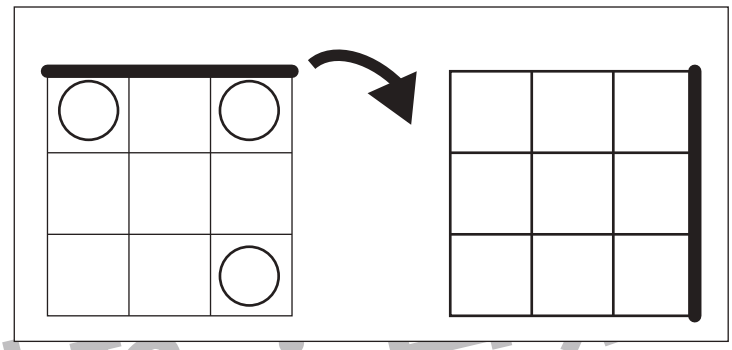

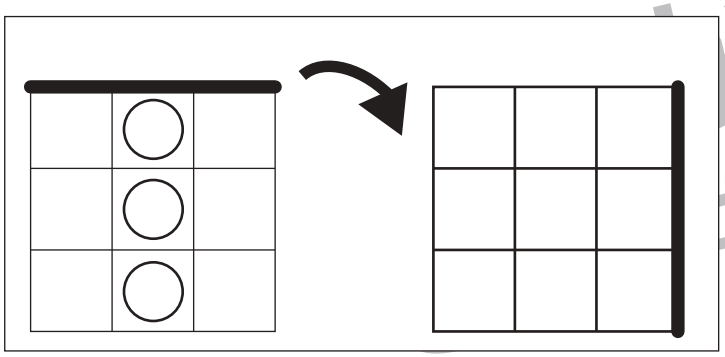

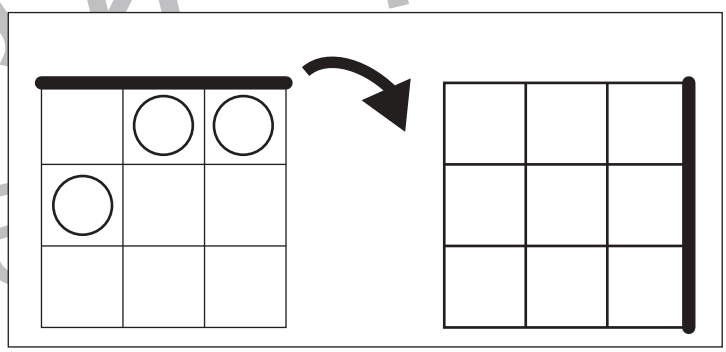

※1. このプリントは、しながわ・目黒こどもスクールのウェブサイトでダウンロードができます。無断複写・引用はご遠慮ください。
※2. このプリントを活用したオンライン授業のスケジュールは、しながわ・目黒こどもスクールのウェブサイトでご確認ください。

ICT 教育の小学校受験
しながわ・目黒こどもスクール
© こどもスクール Ltd.

図形：回転 21

左のお手本を矢印の方向へ 1 回倒した時の見え方を考えて右の四角にかきます。

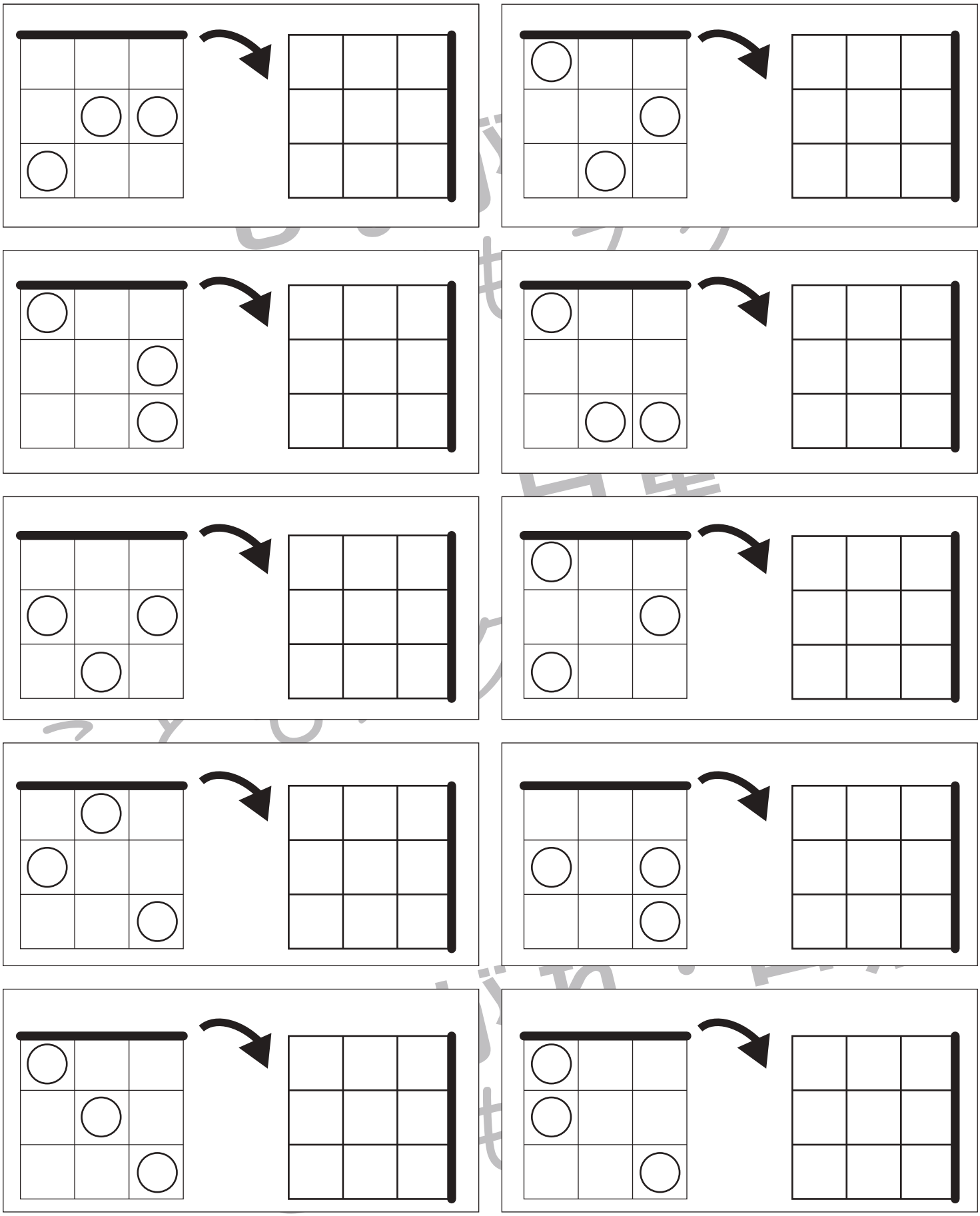

※1. このプリントは、しながわ・目黒こどもスクールのウェブサイトでダウンロードができます。無断複写・引用はご遠慮ください。
※2. このプリントを活用したオンライン授業のスケジュールは、しながわ・目黒こどもスクールのウェブサイトでご確認ください。

推理：地図の移動１

ウサギが家まで歩いて帰ります。途中の★のマークのある曲がり角ではウサギは右と左のどちらに曲がりますか。
右に曲がる曲がり角の★に○をつけます。

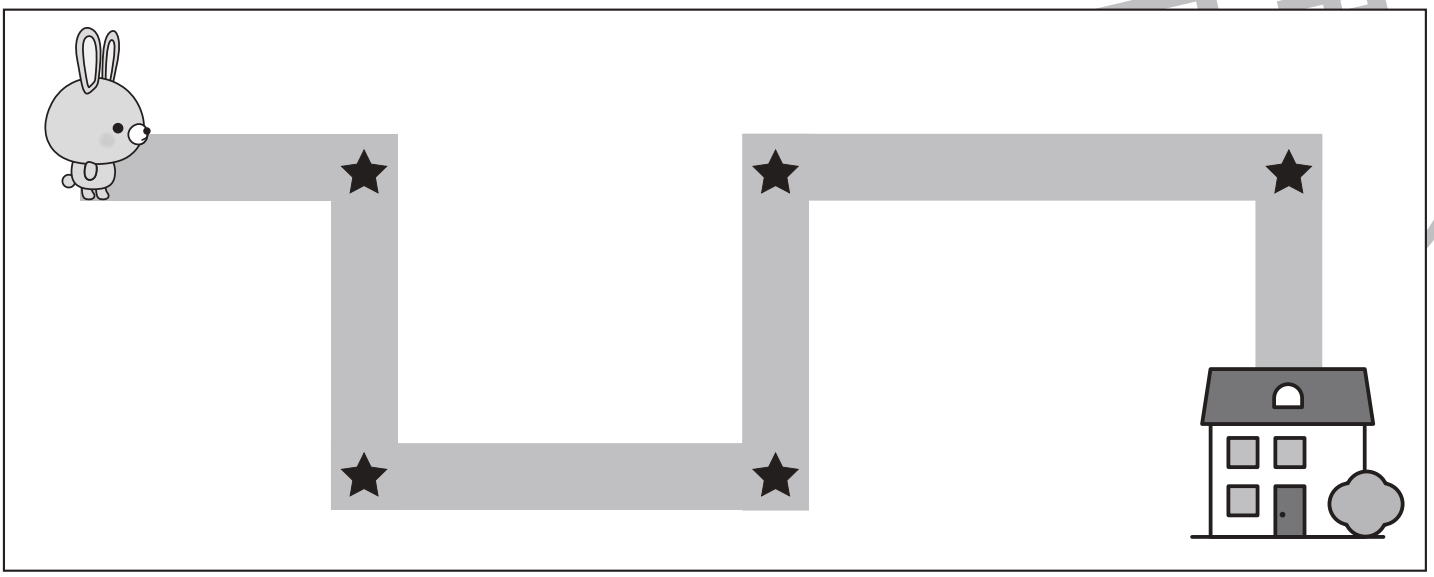

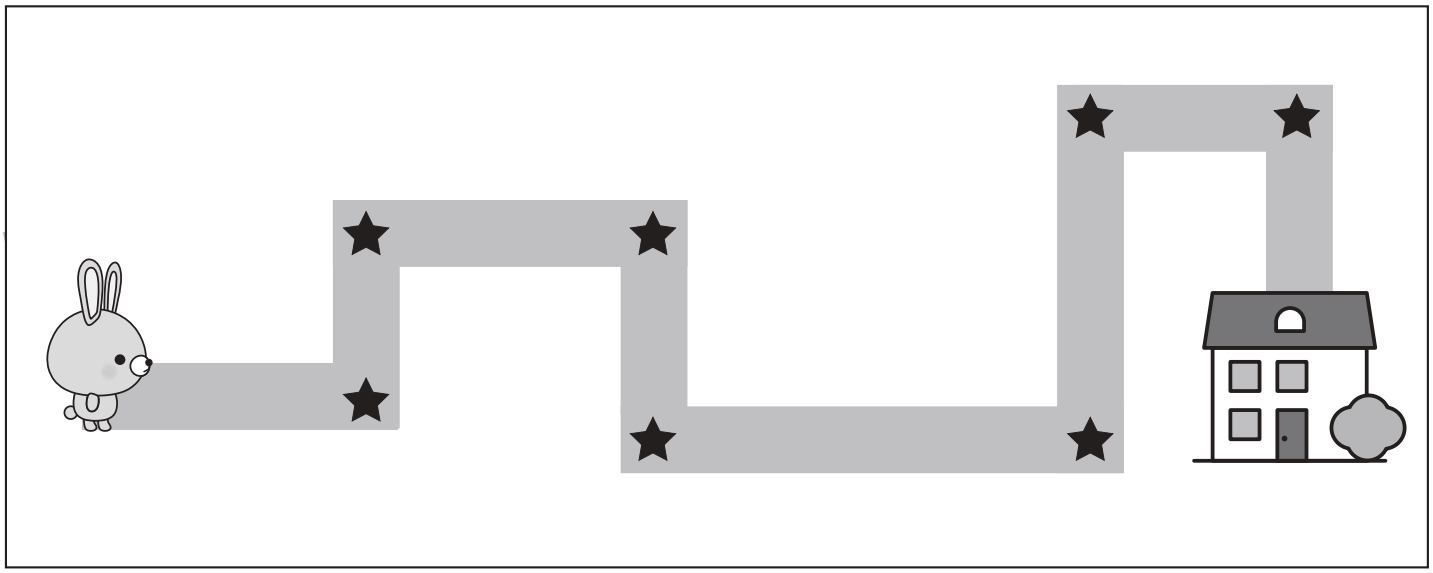

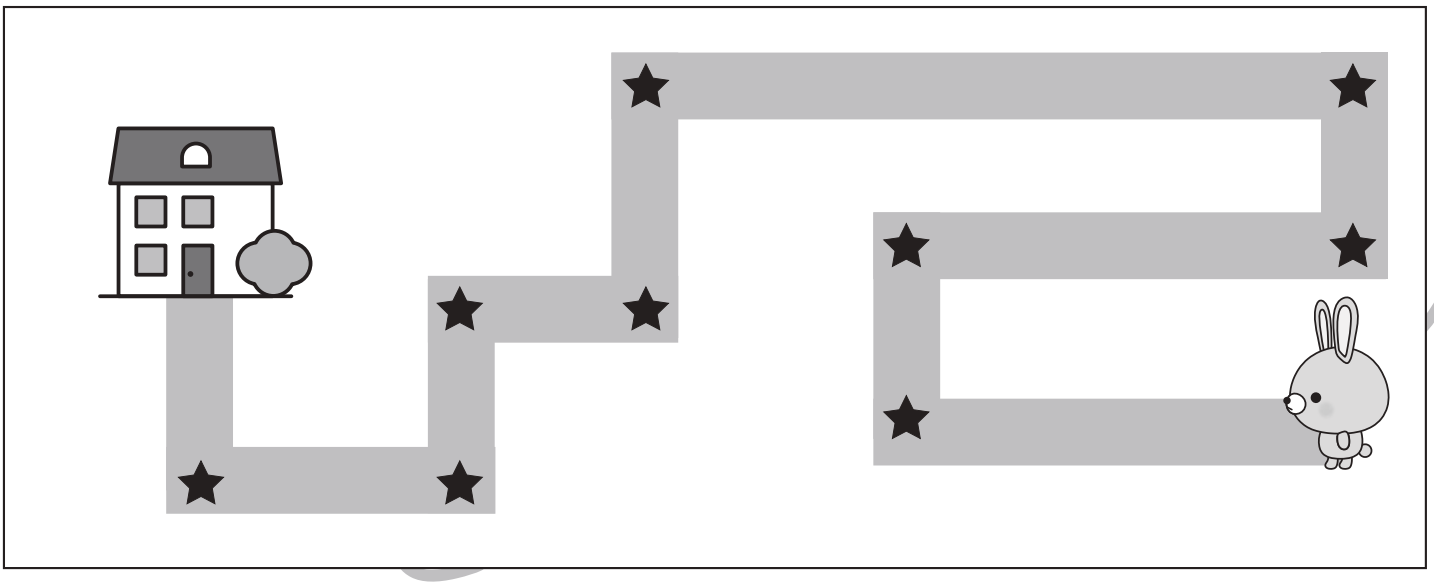

※1. このプリントは、しながわ・目黒こどもスクールのウェブサイトでダウンロードができます。無断複写・引用はご遠慮ください。
※2. このプリントを活用したオンライン授業のスケジュールは、しながわ・目黒こどもスクールのウェブサイトでご確認ください。

ICT教育の小学校受験
しながわ・目黒こどもスクール
© こどもスクール Ltd.

おうちで、やろう。

Study at home. 小学校受験の家庭学習教材

推理：地図の移動２

ウサギが家まで歩いて帰ります。途中の★のマークのある曲がり角ではウサギは右と左のどちらに曲がりますか。
左に曲がる曲がり角の★に〇をつけます。

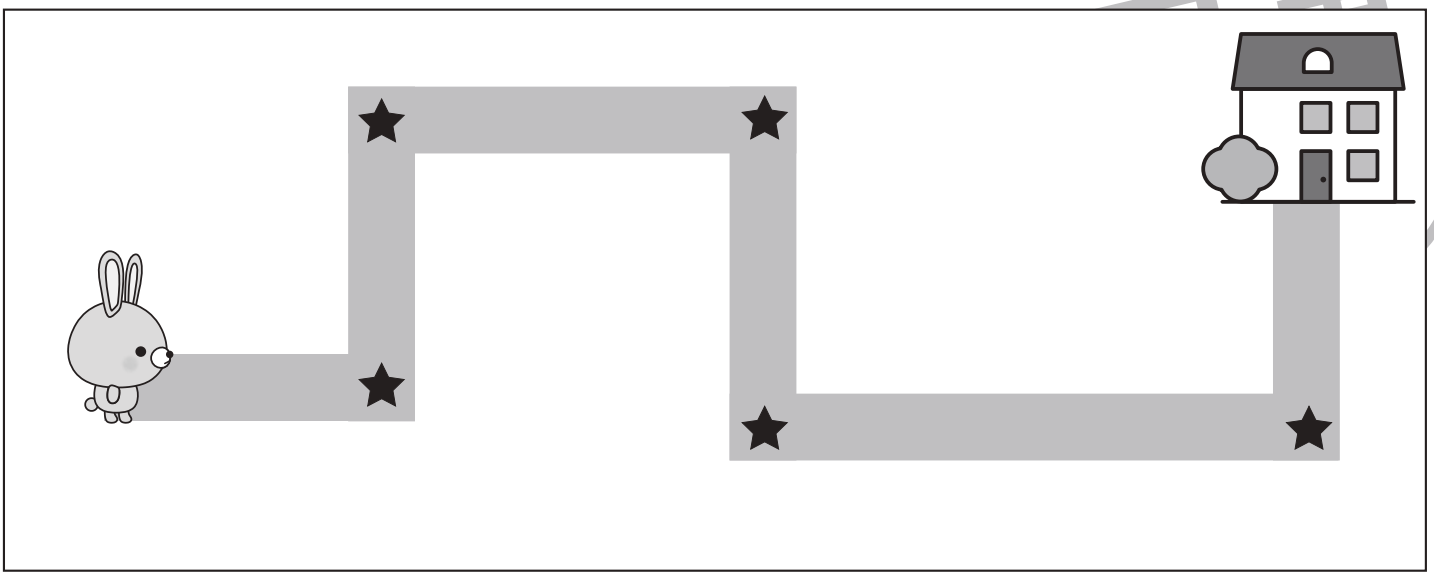

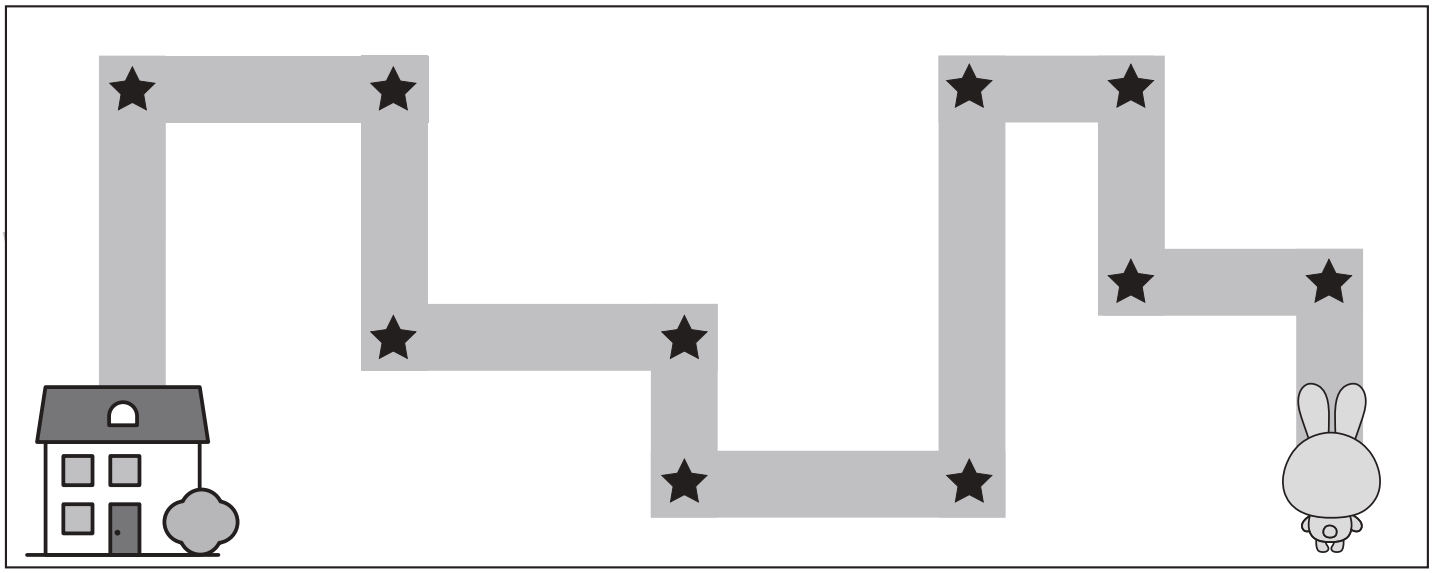



※1. このプリントは、しながわ・目黒こどもスクールのウェブサイトでダウンロードができます。無断複写・引用はご遠慮ください。
※2. このプリントを活用したオンライン授業のスケジュールは、しながわ・目黒こどもスクールのウェブサイトでご確認ください。

ICT 教育の小学校受験
しながわ・目黒こどもスクール
© こどもスクール Ltd.

おうちで、やろう。

Study at home. 小学校受験の家庭学習教材

数量：数の操作１

男の子と女の子がそれぞれ同じクッキーを持っていますが、持っているクッキーの数が違います。女の子が男の子に何枚かクッキーをあげると２人のクッキーの数が同じになります。２人のクッキーの枚数が同じになるように女の子が男の子にあげるクッキーの数だけ真ん中の四角に○をかきます。

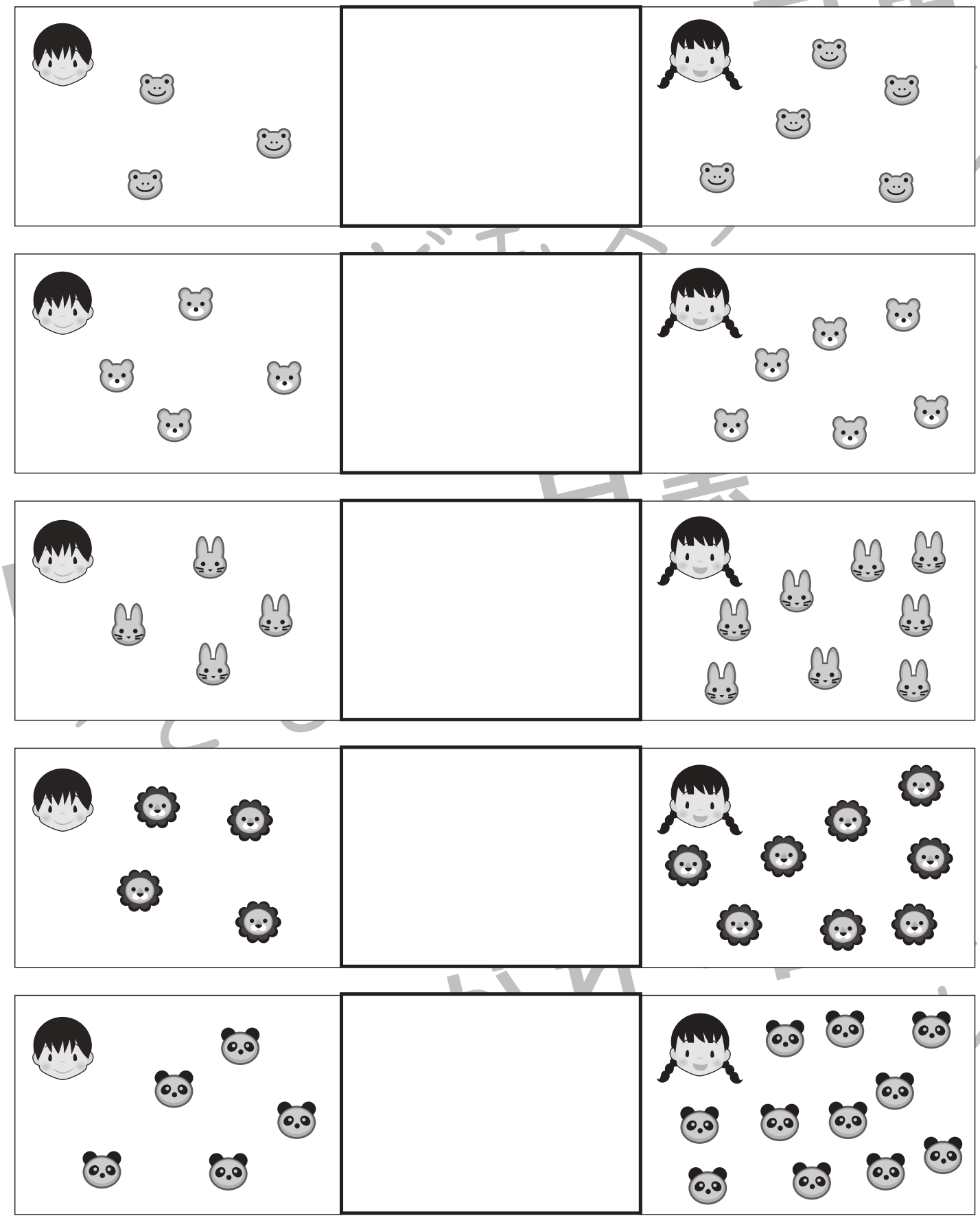

※1. このプリントは、しながわ・目黒こどもスクールのウェブサイトでダウンロードができます。無断複写・引用はご遠慮ください。
※2. このプリントを活用したオンライン授業のスケジュールは、しながわ・目黒こどもスクールのウェブサイトでご確認ください。

ICT教育の小学校受験
しながわ・目黒こどもスクール
© こどもスクール Ltd.

おうちで、やろう。

Study at home. 小学校受験の家庭学習教材

数量：数の操作２

男の子と女の子がそれぞれ同じクッキーを持っていますが、持っているクッキーの数が違います。どちらかが何枚かクッキーをあげると２人のクッキーの数が同じになります。２人のクッキーの枚数が同じになるためにどちらかがあげるクッキーは何枚ですか。その数だけ真ん中の四角に○をかきます。

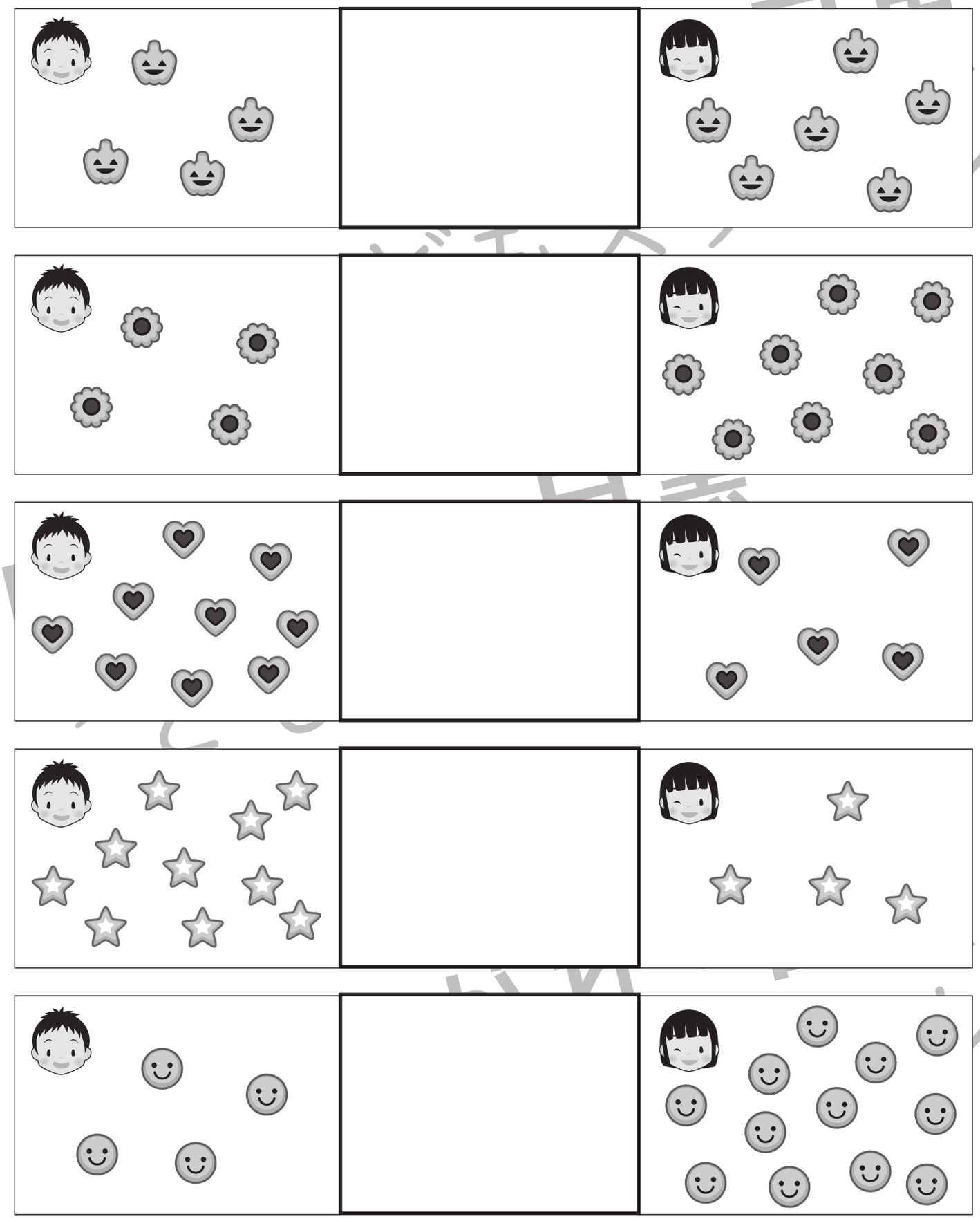

※1. このプリントは、しながわ・目黒こどもスクールのウェブサイトでダウンロードができます。無断複写・引用はご遠慮ください。
※2. このプリントを活用したオンライン授業のスケジュールは、しながわ・目黒こどもスクールのウェブサイトでご確認ください。

ICT 教育の小学校受験
しながわ・目黒こどもスクール
© こどもスクール ltd.

おうちで、やろう。

Study at home. 小学校受験の家庭学習教材

図形：点図形 24

左のお手本と同じになるように右の四角に線をかきます。　※このプリントに解答はありません。



※1. このプリントは、しながわ・目黒こどもスクールのウェブサイトでダウンロードができます。無断複写・引用はご遠慮ください。
※2. このプリントを活用したオンライン授業のスケジュールは、しながわ・目黒こどもスクールのウェブサイトでご確認ください。

ICT 教育の小学校受験
しながわ・目黒こどもスクール
© こどもスクール Ltd.