記憶：絵の記憶 10

別紙「記憶－絵の記憶 10（記憶用紙）」を使用します。記憶用紙を見た後に問題に取り組みます。

①②今見た絵と同じ組み合わせになるように点と点を線で結びます。

①

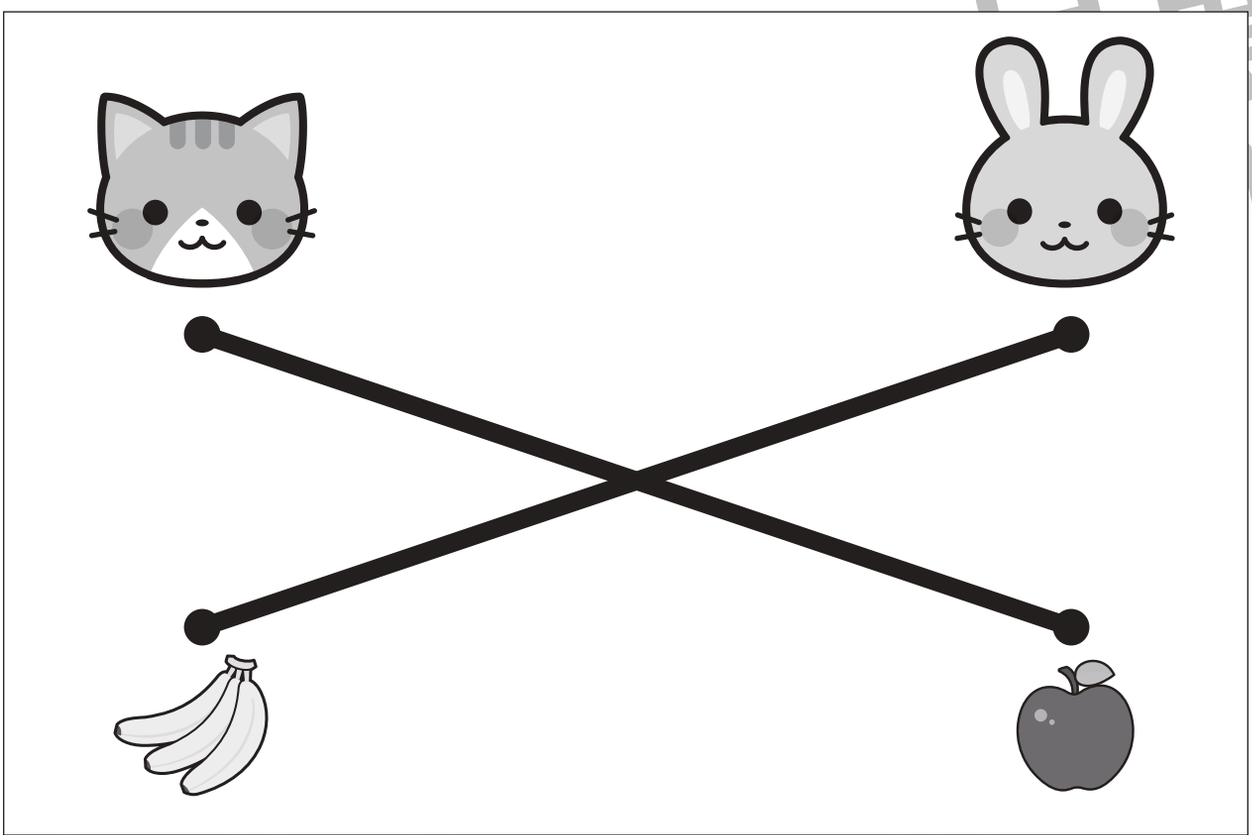

②



※1. このプリントは、しながわ・目黒こどもスクールのウェブサイトでダウンロードができます。無断複写・引用はご遠慮ください。
※2. このプリントを活用したオンライン授業のスケジュールは、しながわ・目黒こどもスクールのウェブサイトでご確認ください。

おうちで、やろう。年中児版

Study at home. 小学校受験の家庭学習教材

指示の聞き取り 12

①四角の中に△を横並びに４つ青のクーピーでかきます。
②トマトには○、カボチャには△、白菜には□を赤のクーピーでつけます。
③白の形すべてを紫のクーピーで、黒の形すべてを橙色のクーピーでつなぎます。

①

青

△　△　△　△

②

赤



③

※すべての形が繋がっていれば
順番問わず正解

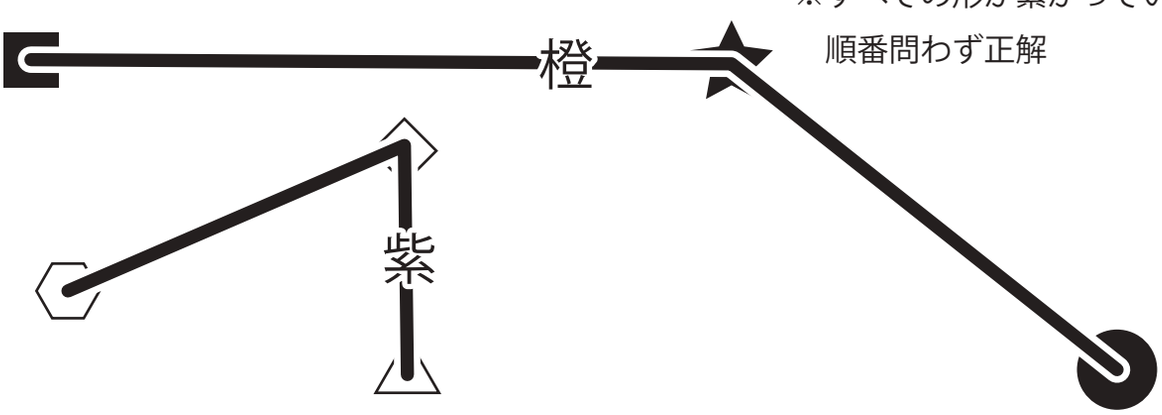

※1. このプリントは、しながわ・目黒こどもスクールのウェブサイトでダウンロードができます。無断複写・引用はご遠慮ください。
※2. このプリントを活用したオンライン授業のスケジュールは、しながわ・目黒こどもスクールのウェブサイトでご確認ください。

ICT 教育の小学校受験
しながわ・目黒こどもスクール
© こどもスクール Ltd.

おうちで、やろう。年中児版

Study at home. 小学校受験の家庭学習教材

記憶：短文記憶 10

短いお話を聞いて、問題に答えます。

【お話本文】

ある日、トラさんは幼稚園の遠足でフルーツ狩りに出かけました。トラさんはフルーツ狩りに行ったことがなかったので、とても楽しみにしていました。「みんな、はぐれないように隣のお友だちと手をつないでくださいね」と先生が言いました。トラさんの隣はカバさんだったので、トラさんはカバさんと手を繋ぎました。フルーツ農園に着くと、最初にトラさんはヒツジさんとブドウを取りに行きました。「とっても美味しいね」とトラさんとヒツジさんはニコニコしながら言いました。とても美味しかったので、トラさんはブドウを７粒も食べました。次にトラさんはタヌキさんと一緒に柿を食べに行きました。先生が「もうすぐ帰る時間ですよ」と言ったので、トラさんは最後にリンゴを食べに行きました。トラさんはリンゴが一番の好物なので、「最後に食べられて良かった」と思いました。フルーツ農園の方から最後にブドウをお土産でもらったので、トラさんはお気に入りの水色のリュックサックに入れました。

①トラさんが食べたブドウの数だけ、四角の中に〇をかきます。
②トラさんが一緒に柿を取りに行った動物に〇をつけます。
③トラさんのお気に入りのリュックサックの色で〇の中を塗ります。
④トラさんがブドウの次に食べた果物に〇をつけます。

①

〇×7

②



③

④

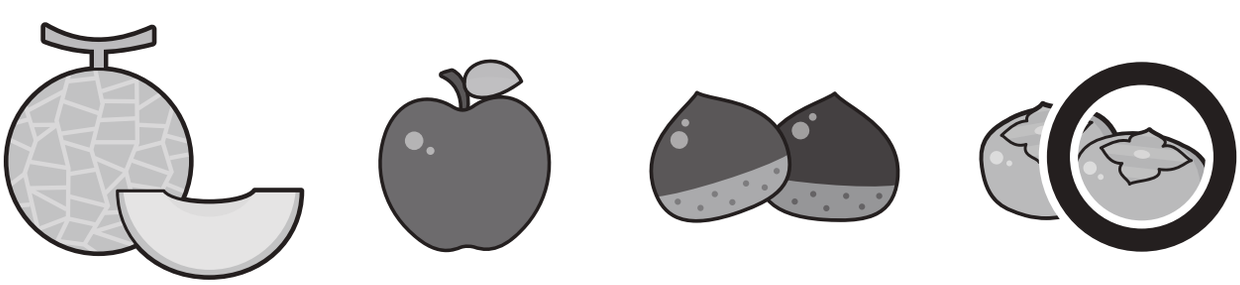

※1. このプリントは、しながわ・目黒こどもスクールのウェブサイトでダウンロードができます。無断複写・引用はご遠慮ください。
※2. このプリントを活用したオンライン授業のスケジュールは、しながわ・目黒こどもスクールのウェブサイトでご確認ください。

ICT 教育の小学校受験
しながわ・目黒
こどもスクール
© こどもスクール Ltd.

常識：季節 12

四角の中の絵で違う季節の物を１つ選んで × をつけます。

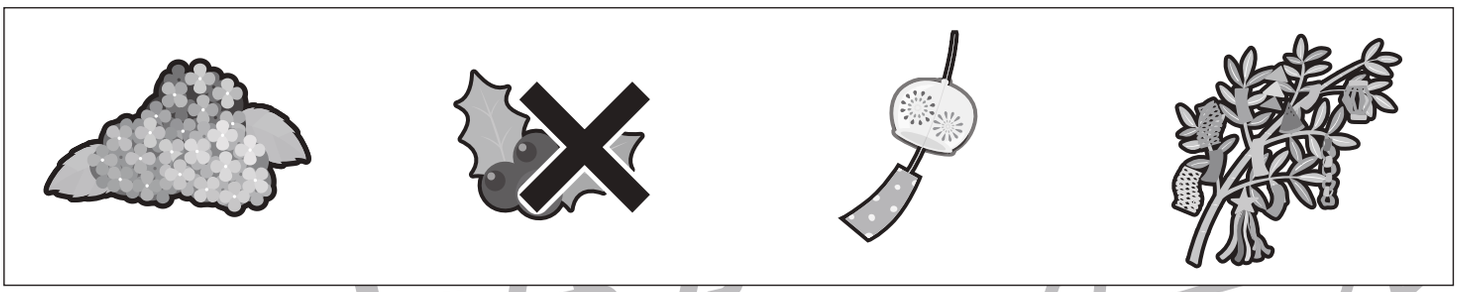

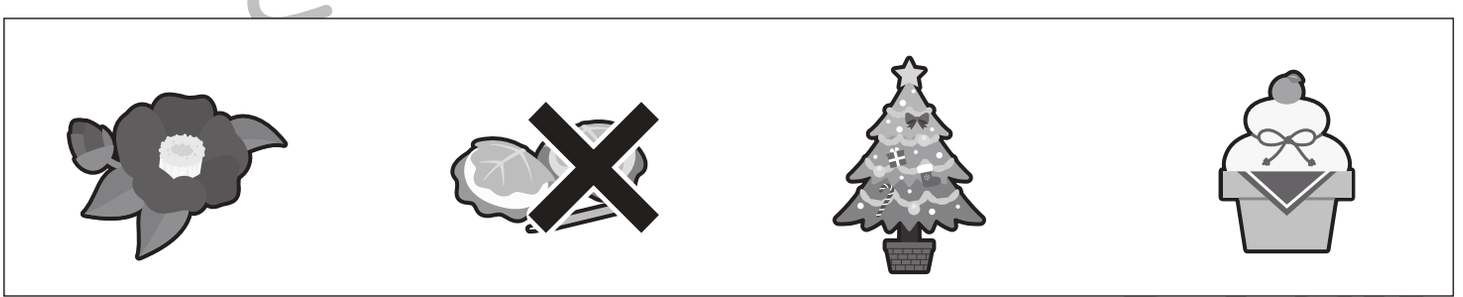



※1. このプリントは、しながわ・目黒こどもスクールのウェブサイトでダウンロードができます。無断複写・引用はご遠慮ください。
※2. このプリントを活用したオンライン授業のスケジュールは、しながわ・目黒こどもスクールのウェブサイトでご確認ください。

ICT 教育の小学校受験
しながわ・目黒こどもスクール
© こどもスクール ltd.

図形：鏡２

左の四角の中の形を灰色の太い線の上に鏡を置いて見ます。このとき、正しい見え方を右の四角の中から選び○をつけます。

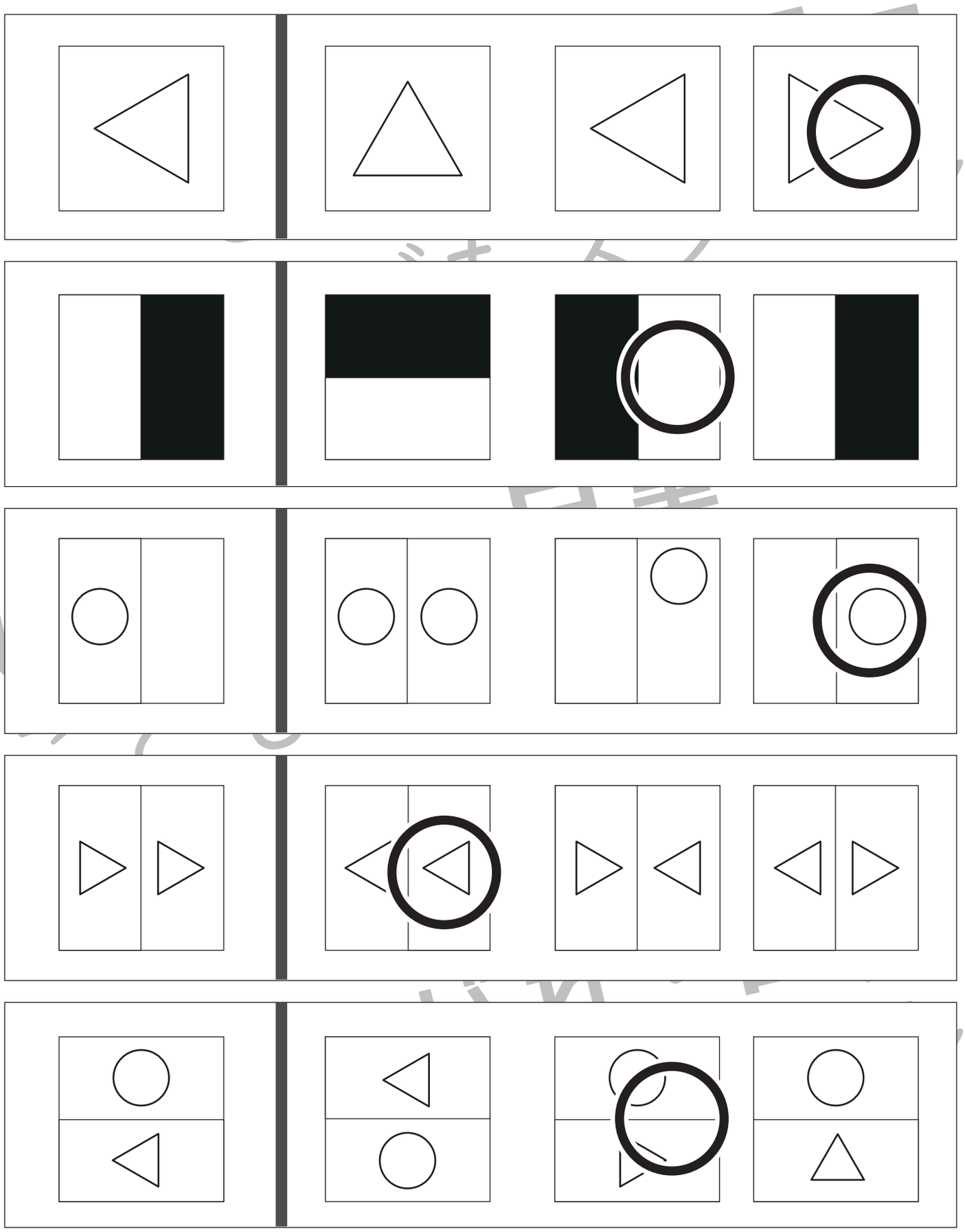

※1. このプリントは、しながわ・目黒こどもスクールのウェブサイトでダウンロードができます。無断複写・引用はご遠慮ください。
※2. このプリントを活用したオンライン授業のスケジュールは、しながわ・目黒こどもスクールのウェブサイトでご確認ください。

ICT 教育の小学校受験
しながわ・目黒こどもスクール
© こどもスクール ltd.

おうちで、やろう。年中児版

Study at home. 小学校受験の家庭学習教材

数量：加減４

左の四角と右の四角の中のイチゴの数が合わせて６個になるように点と点を結びます。

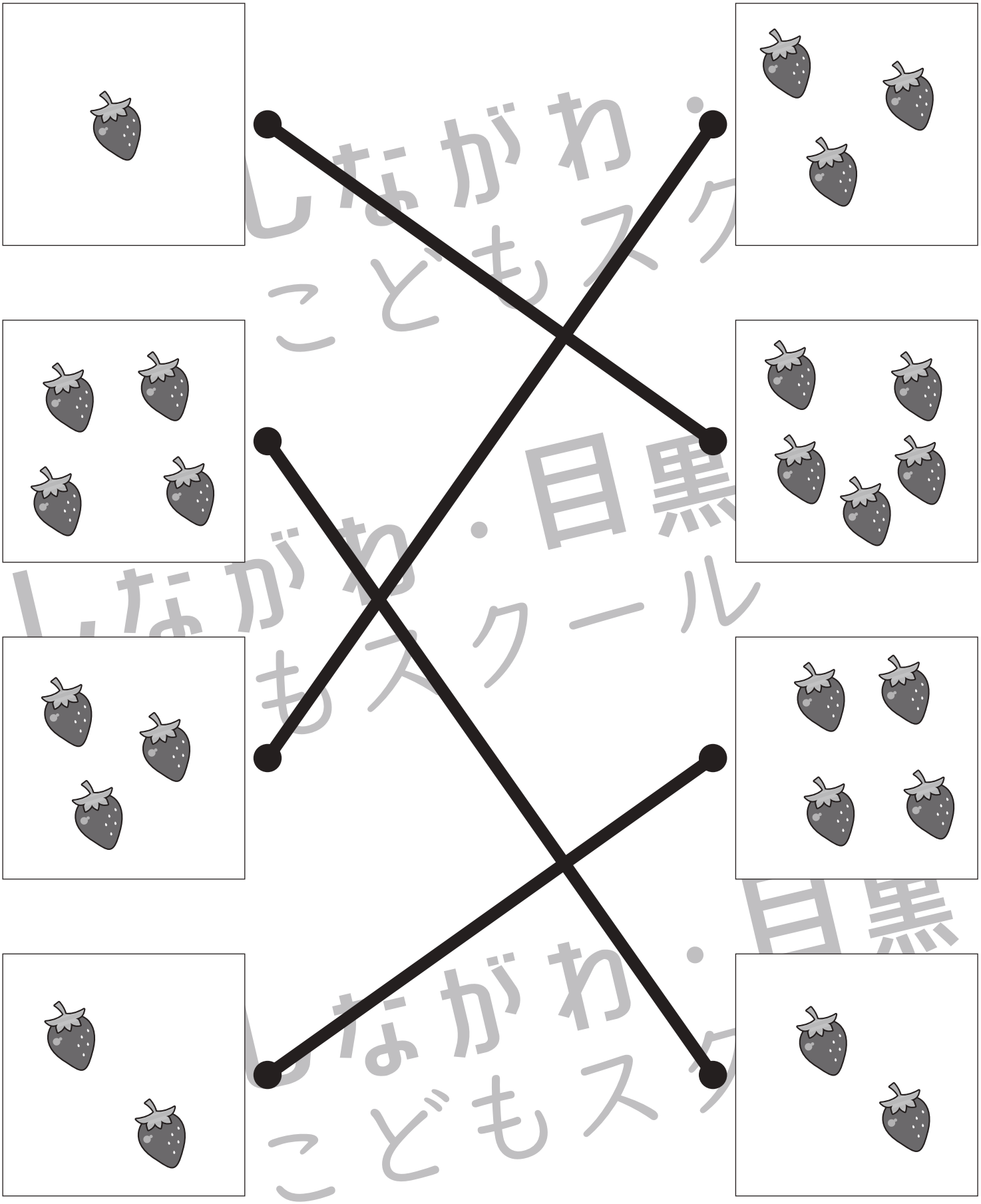

しながわ・目黒こどもスクール

※1. このプリントは、しながわ・目黒こどもスクールのウェブサイトでダウンロードができます。無断複写・引用はご遠慮ください。
※2. このプリントを活用したオンライン授業のスケジュールは、しながわ・目黒こどもスクールのウェブサイトでご確認ください。

ICT 教育の小学校受験
しながわ・目黒こどもスクール
© こどもスクール Ltd.

数量：加減５

左の四角と右の四角の中のキノコの数が合わせて８個になるように点と点を結びます。

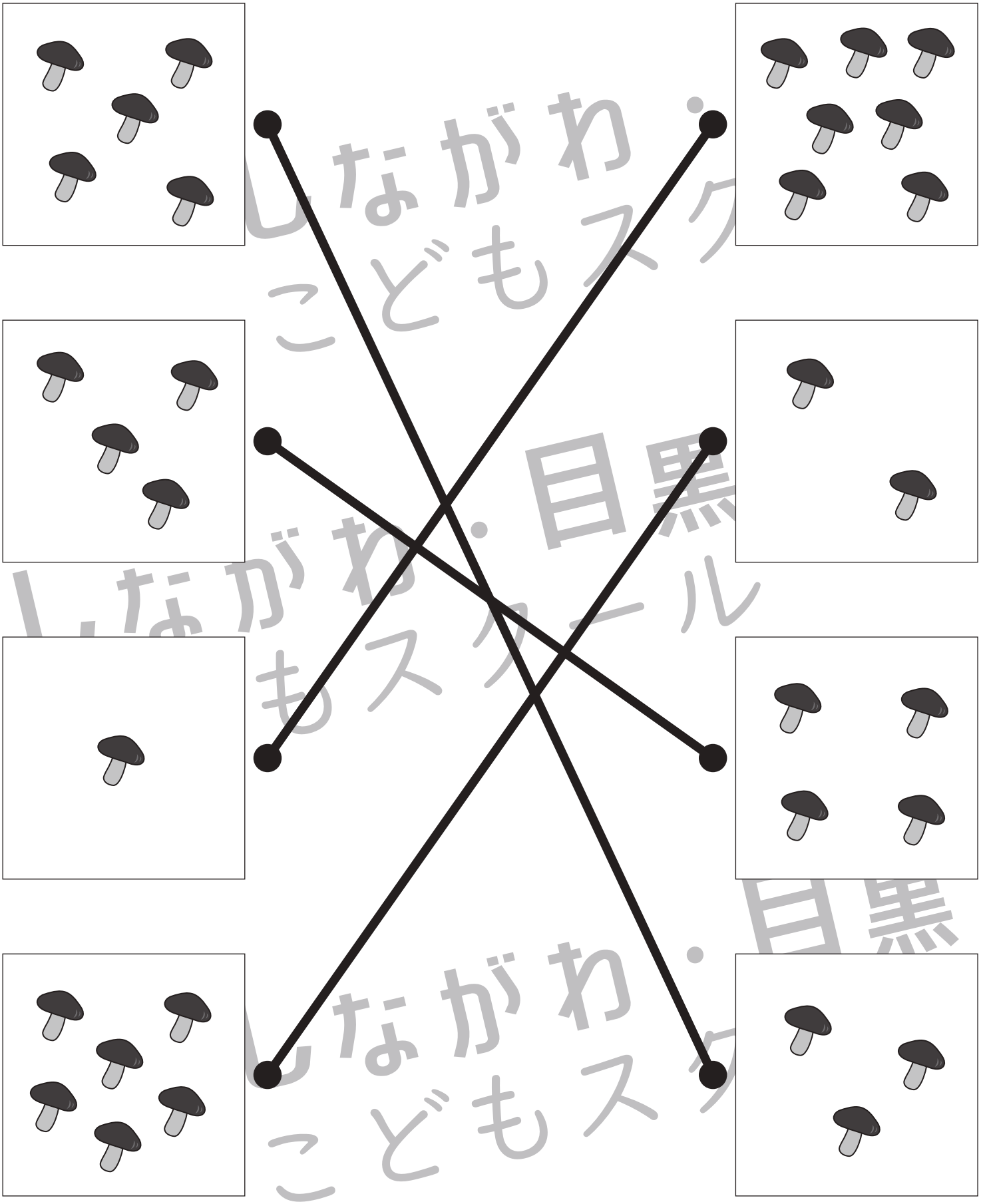

※1. このプリントは、しながわ・目黒こどもスクールのウェブサイトでダウンロードができます。無断複写・引用はご遠慮ください。
※2. このプリントを活用したオンライン授業のスケジュールは、しながわ・目黒こどもスクールのウェブサイトでご確認ください。

ICT教育の小学校受験
しながわ・目黒こどもスクール
© こどもスクール Ltd.