おうちで、やろう。

Study at home. 小学校受験の家庭学習教材

常識：季節 13

四角の中にはそれぞれ同じ季節の絵があります。
すべての絵が同じ季節なら○、違う季節の絵があったらその絵に × をつけます。



※1. このプリントは、しながわ・目黒こどもスクールのウェブサイトでダウンロードができます。無断複写・引用はご遠慮ください。
※2. このプリントを活用したオンライン授業のスケジュールは、しながわ・目黒こどもスクールのウェブサイトでご確認ください。

ICT 教育の小学校受験
しながわ・目黒こどもスクール
© こどもスクール Ltd.

常識：行事３

左の太い四角の中の絵はある行事の絵です。
その行事は何月にするのかを考えて、その月の数だけ右の四角に〇をかきます。







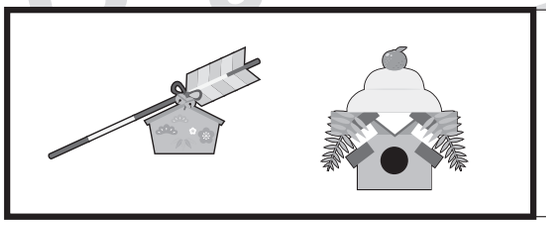





※1. このプリントは、しながわ・目黒こどもスクールのウェブサイトでダウンロードができます。無断複写・引用はご遠慮ください。
※2. このプリントを活用したオンライン授業のスケジュールは、しながわ・目黒こどもスクールのウェブサイトでご確認ください。

ICT 教育の小学校受験
しながわ・目黒こどもスクール
© こどもスクール ltd.

おうちで、やろう。

Study at home. 小学校受験の家庭学習教材

推理：ブラックボックス５

上の太い四角の中が約束です。矢印の左にある形が、ウサギやクマの箱を通ると矢印の右のようになって出てきます。
どのような約束があるのかを考えて、左の四角の中の形が箱に入って出てきたものを右の四角の中から見つけて○をつけます。





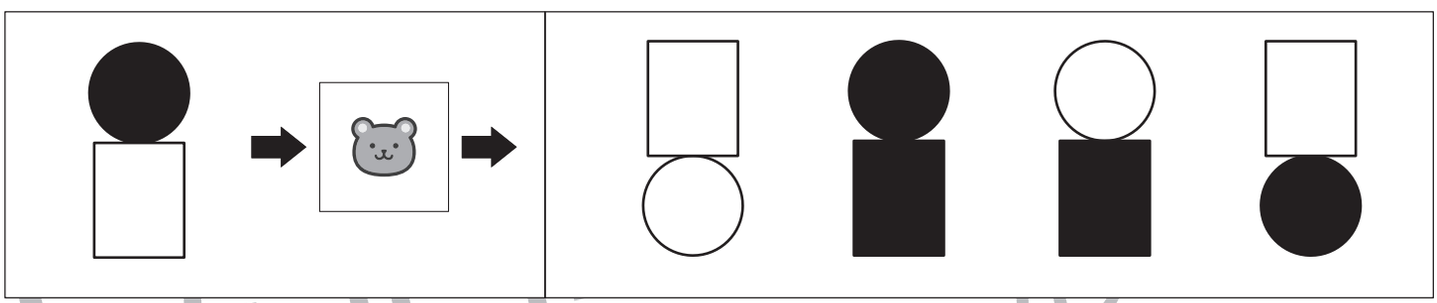

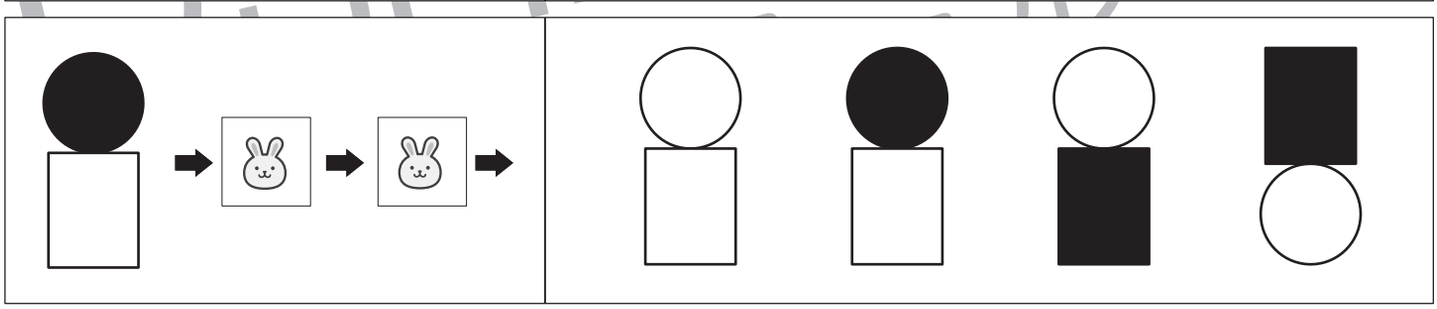

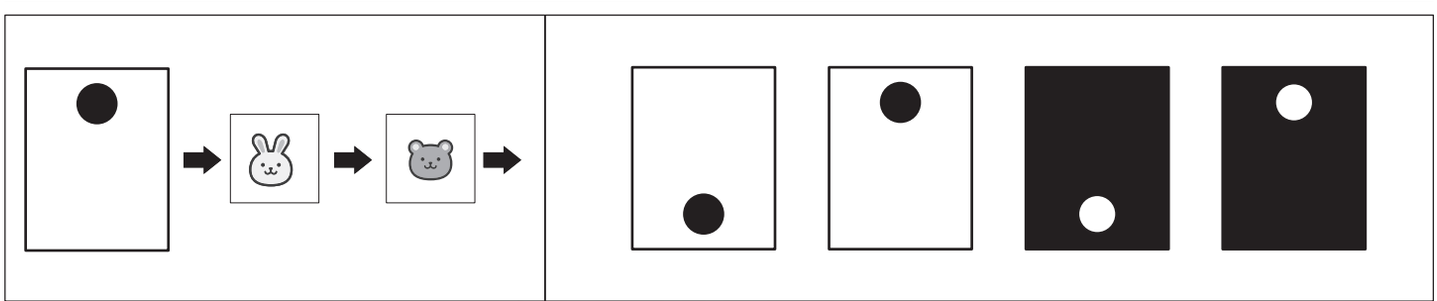

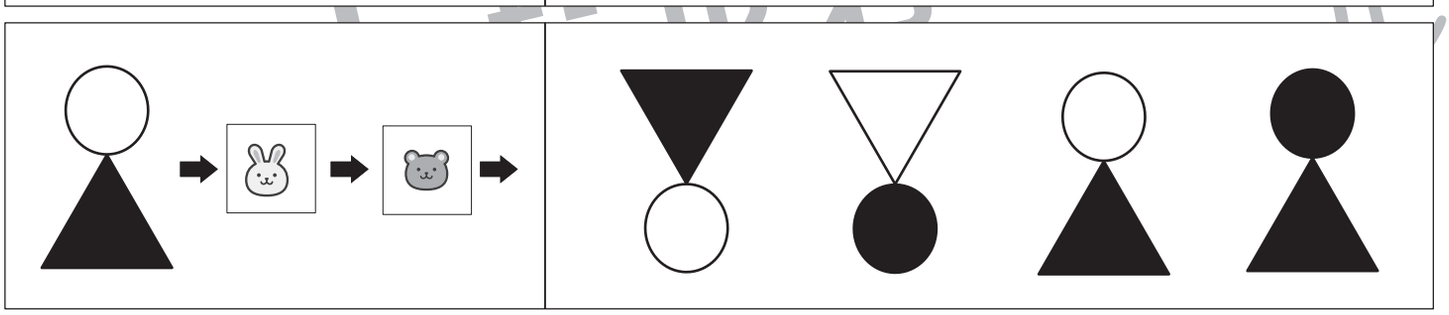

※1. このプリントは、しながわ・目黒こどもスクールのウェブサイトでダウンロードができます。無断複写・引用はご遠慮ください。
※2. このプリントを活用したオンライン授業のスケジュールは、しながわ・目黒こどもスクールのウェブサイトでご確認ください。

ICT 教育の小学校受験
しながわ・目黒こどもスクール
© こどもスクール ltd.

おうちで、やろう。

Study at home. 小学校受験の家庭学習教材

推理：条件推理8

だるま落としをします。左の四角の中のように積み木が積んであります。この中で矢印の積み木を横から叩き落としたとき、残った積み木はどのようになりますか。正しいものを右の四角の中から選び○をつけます。



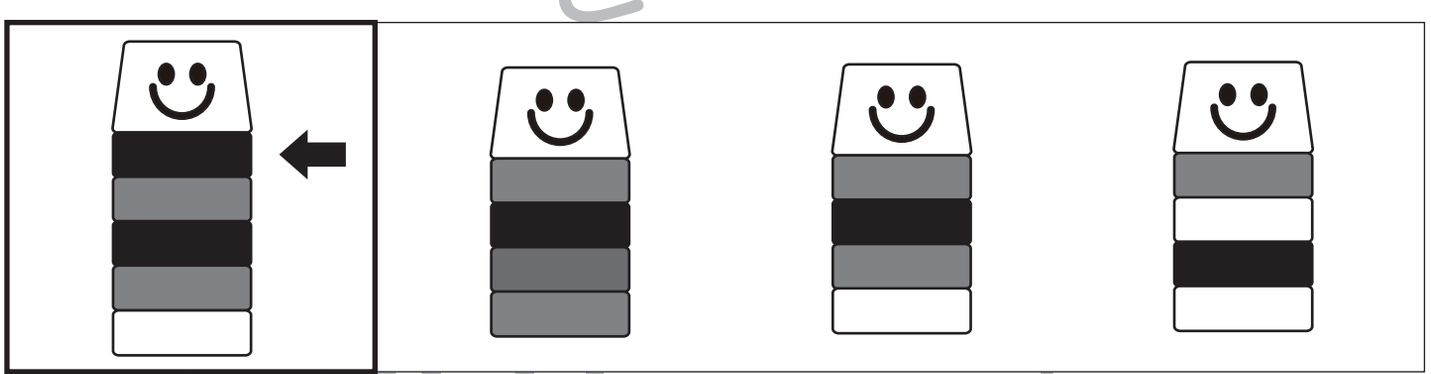





※1. このプリントは、しながわ・目黒こどもスクールのウェブサイトでダウンロードができます。無断複写・引用はご遠慮ください。
※2. このプリントを活用したオンライン授業のスケジュールは、しながわ・目黒こどもスクールのウェブサイトでご確認ください。

ICT教育の小学校受験
しながわ・目黒こどもスクール
© こどもスクール ltd.

おうちで、やろう。

Study at home. 小学校受験の家庭学習教材

推理：条件推理９

だるま落としをします。左の四角の中のように積み木が積んであります。この中で矢印の積み木を横から叩き落としたとき、残った積み木はどのようになりますか。正しいものを右の四角の中から選び○をつけます。

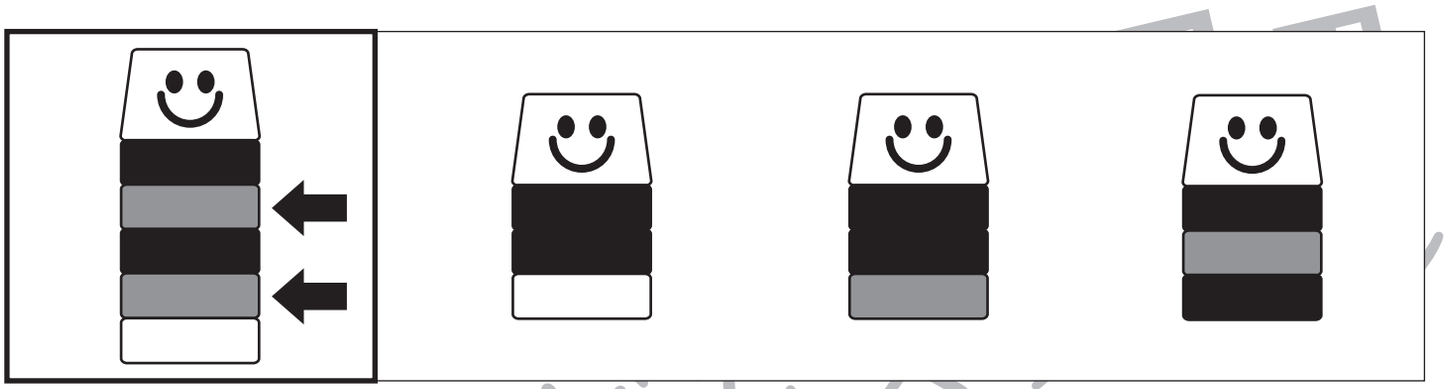







※1. このプリントは、しながわ・目黒こどもスクールのウェブサイトでダウンロードができます。無断複写・引用はご遠慮ください。
※2. このプリントを活用したオンライン授業のスケジュールは、しながわ・目黒こどもスクールのウェブサイトでご確認ください。

ICT 教育の小学校受験
しながわ・目黒こどもスクール
© こどもスクール ltd.

おうちで、やろう。

Study at home. 小学校受験の家庭学習教材

数量：すごろく7

すごろく遊びをします。☆からスタートして上の四角の中のサイコロの目の数だけ進むとき、着いたマスに〇をかきます。
白い目のサイコロが出た時は右回り、黒い目のサイコロが出た時は左回りに進む約束です。

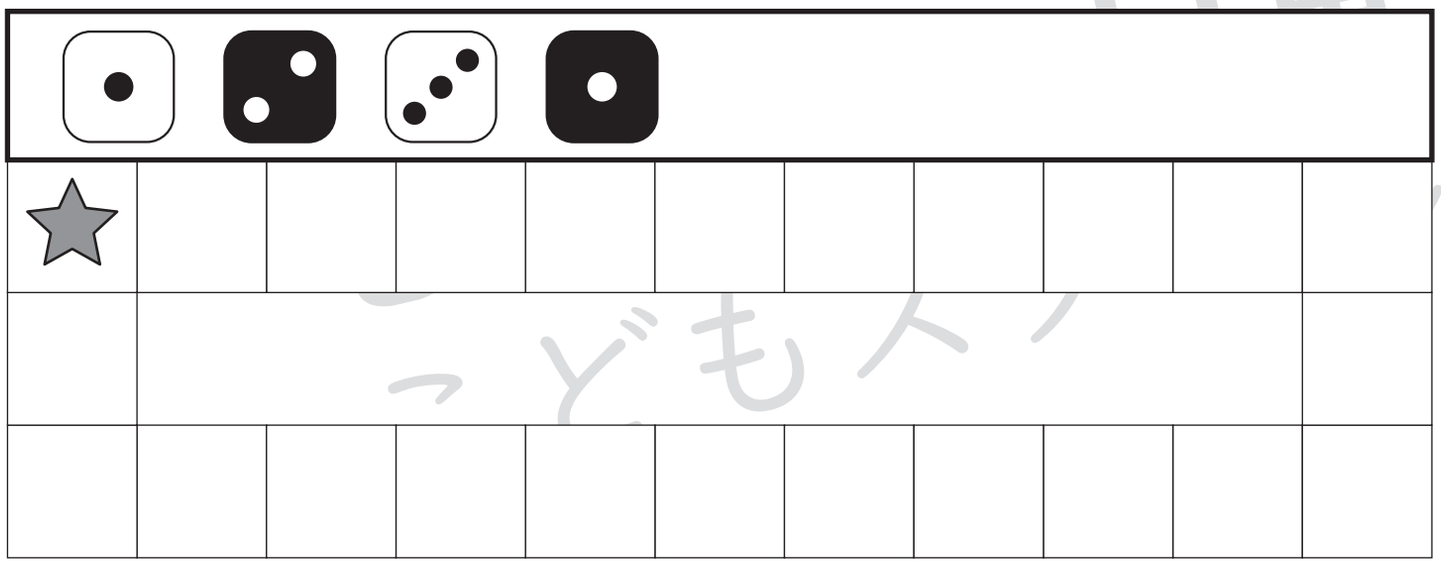

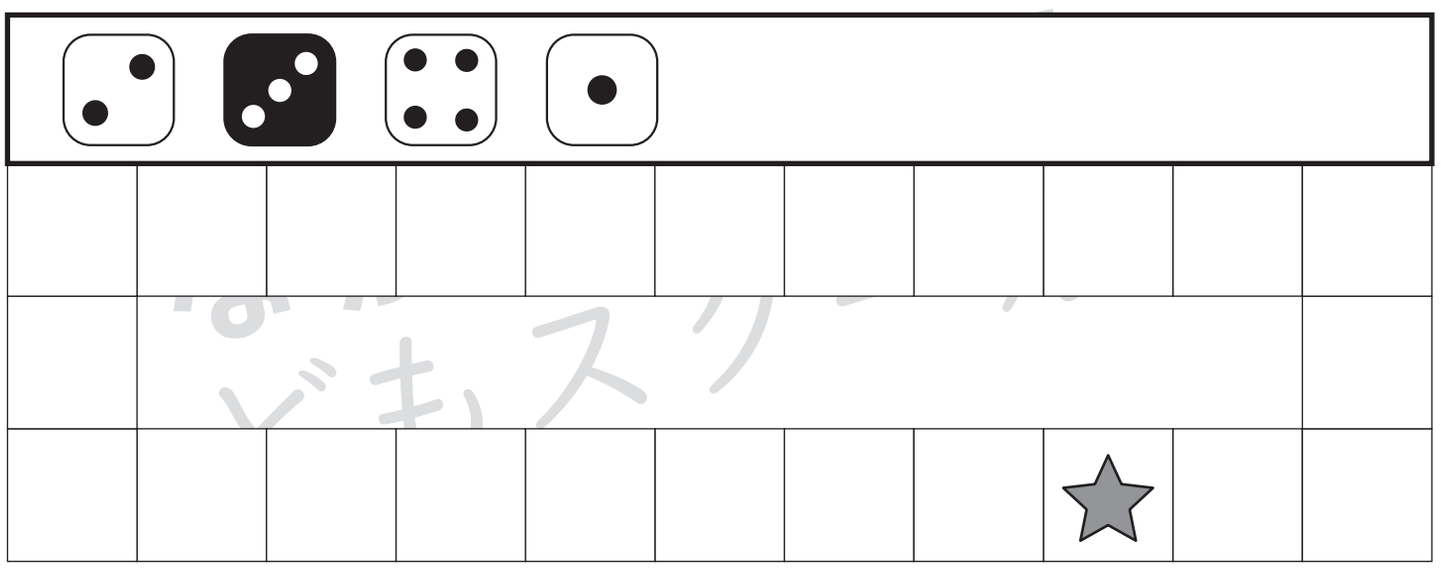

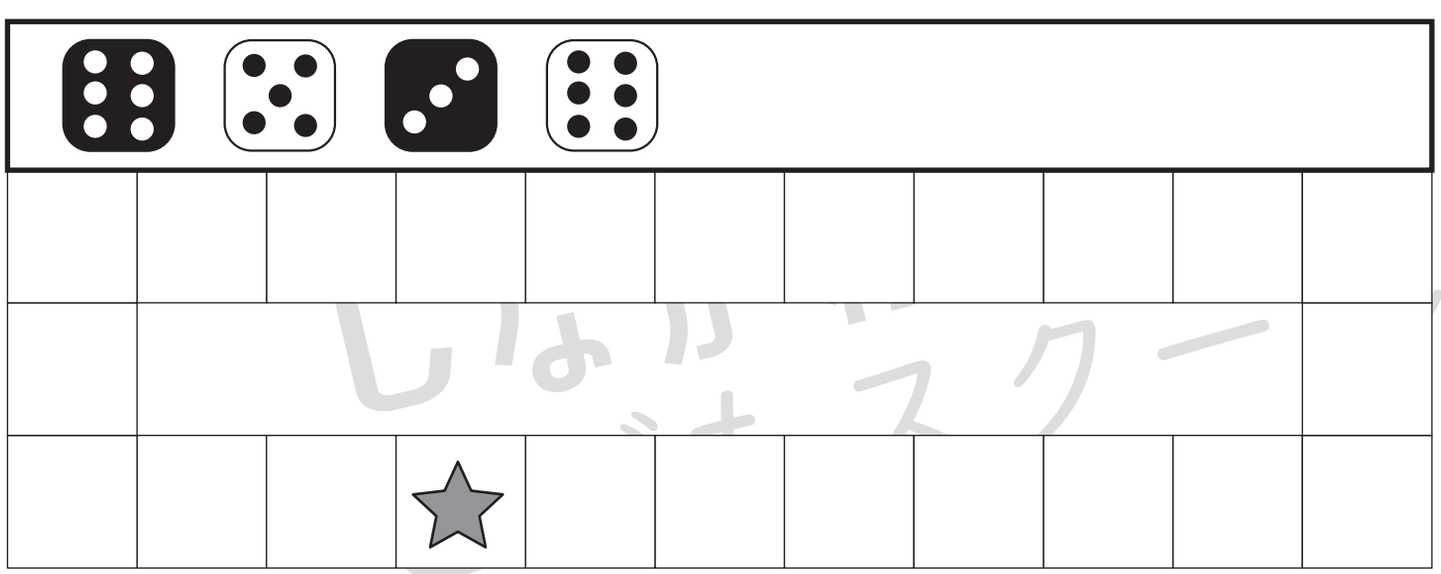

※1. このプリントは、しながわ・目黒こどもスクールのウェブサイトでダウンロードができます。無断複写・引用はご遠慮ください。
※2. このプリントを活用したオンライン授業のスケジュールは、しながわ・目黒こどもスクールのウェブサイトでご確認ください。

ICT 教育の小学校受験
しながわ・目黒こどもスクール
© こどもスクール ltd.

おうちで、やろう。

Study at home. 小学校受験の家庭学習教材

数量：すごろく8

すごろく遊びをします。☆からスタートして上の四角の中のサイコロの目の数だけ進むとき、着いたマスに○をかきます。
白い目のサイコロが出た時は右回り、黒い目のサイコロが出た時は左回りに進む約束です。

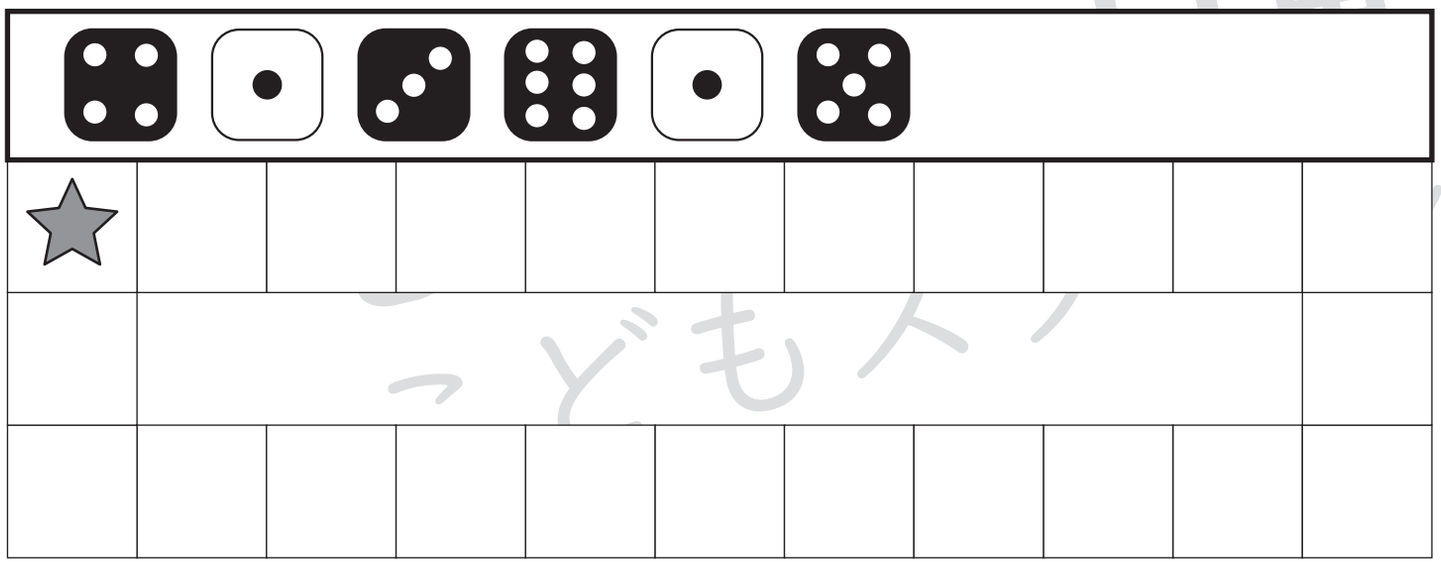



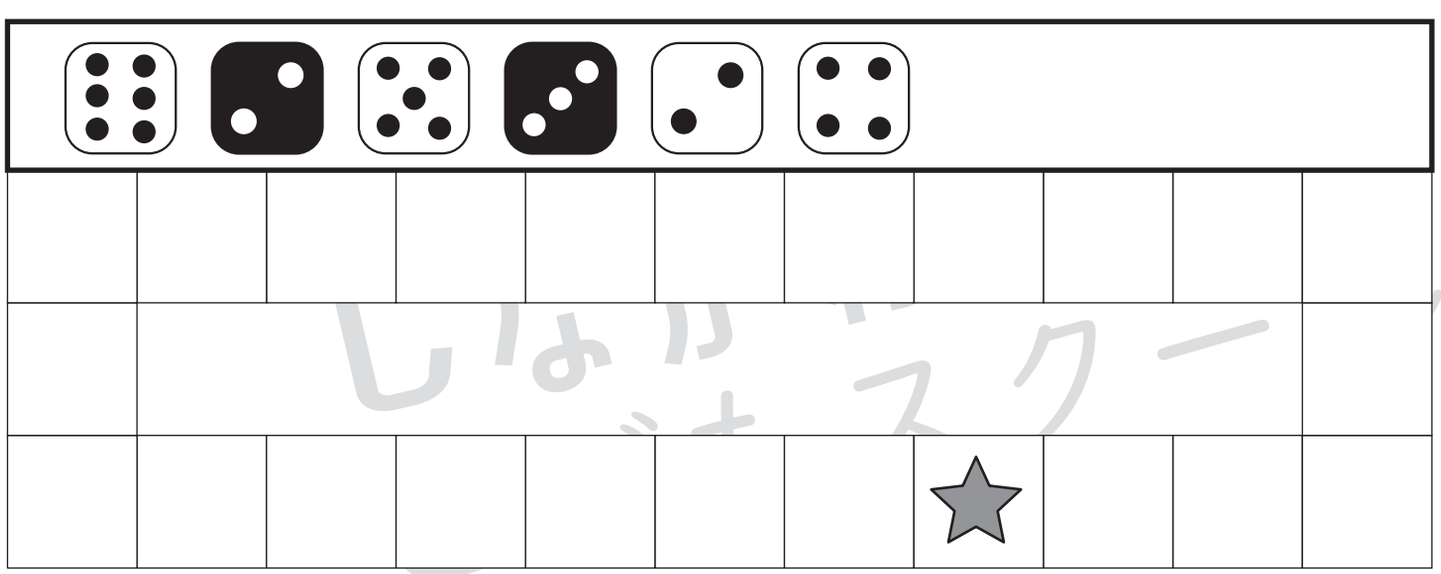

※1. このプリントは、しながわ・目黒こどもスクールのウェブサイトでダウンロードができます。無断複写・引用はご遠慮ください。
※2. このプリントを活用したオンライン授業のスケジュールは、しながわ・目黒こどもスクールのウェブサイトでご確認ください。

ICT 教育の小学校受験
しながわ・目黒こどもスクール
© こどもスクール ltd.

おうちで、やろう。

Study at home. 小学校受験の家庭学習教材

処理：計数 15

上の四角の中の絵のそれぞれの数をかぞえます。その数だけ下の同じ形の四角に〇をかきます。
この問題はスピードを意識して取り組む練習をしてみましょう。（1分～1分30秒）

※1. このプリントは、しながわ・目黒こどもスクールのウェブサイトでダウンロードができます。無断複写・引用はご遠慮ください。
※2. このプリントを活用したオンライン授業のスケジュールは、しながわ・目黒こどもスクールのウェブサイトでご確認ください。

ICT教育の小学校受験
しながわ・目黒こどもスクール
© こどもスクール ltd.