おうちで、やろう。

Study at home. 小学校受験の家庭学習教材

言語：おわりの音７

左上の太い四角の中の絵のおわりの音と同じおわりの音の絵を、大きい四角の中から探して〇をつけます。



※1. このプリントは、しながわ・目黒こどもスクールのウェブサイトでダウンロードができます。無断複写・引用はご遠慮ください。
※2. このプリントを活用したオンライン授業のスケジュールは、しながわ・目黒こどもスクールのウェブサイトでご確認ください。

ICT 教育の小学校受験
しながわ・目黒こどもスクール
© こどもスクール Ltd.

おうちで、やろう。

Study at home. 小学校受験の家庭学習教材

図形：折り重ね 23

左のマスは透明です。このマスを真ん中の太い線で矢印の方向へ折り重ねたときに黒くなるマスを考えます。
そのマスを考えて、右の四角に○をかきます。

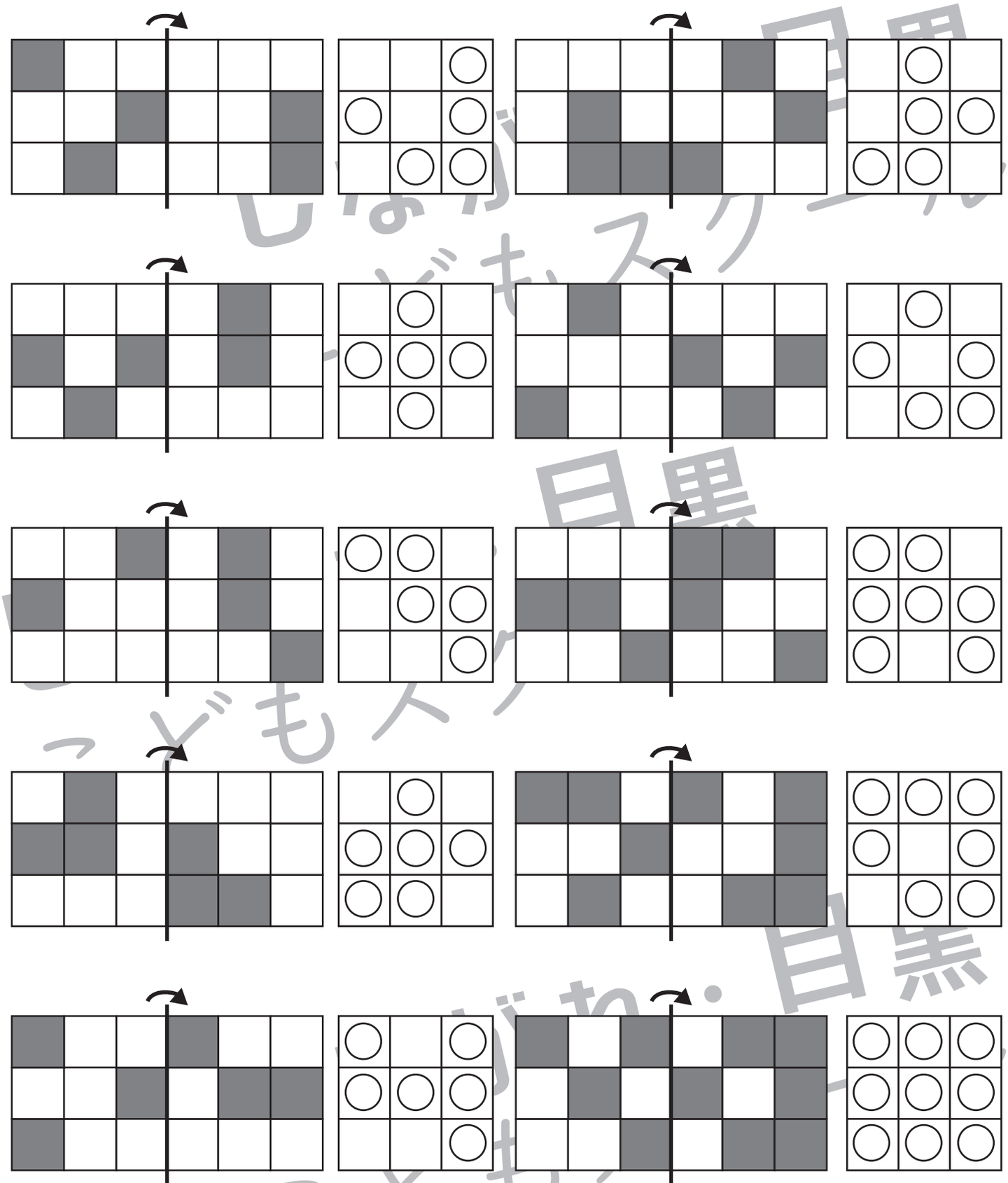

しながわ・目黒こどもスクール

※1. このプリントは、しながわ・目黒こどもスクールのウェブサイトでダウンロードができます。無断複写・引用はご遠慮ください。
※2. このプリントを活用したオンライン授業のスケジュールは、しながわ・目黒こどもスクールのウェブサイトでご確認ください。

ICT 教育の小学校受験
しながわ・目黒こどもスクール
© こどもスクール ltd.

おうちで、やろう。

Study at home. 小学校受験の家庭学習教材

推理：影8

左の四角の中には、絵が影になって重なっています。右の四角の中で、左の四角の中にない絵を見つけて○をつけます。















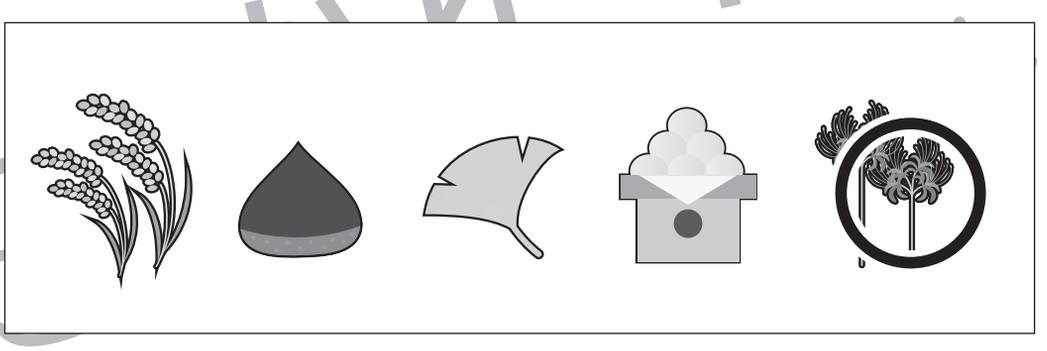

※1. このプリントは、しながわ・目黒こどもスクールのウェブサイトでダウンロードができます。無断複写・引用はご遠慮ください。
※2. このプリントを活用したオンライン授業のスケジュールは、しながわ・目黒こどもスクールのウェブサイトでご確認ください。

ICT教育の小学校受験
しながわ・目黒こどもスクール
© こどもスクール ltd.

数量：計数３

四角の中の絵を数えて、一番多い絵は○、一番少ない絵は△を、下についている四角の中の絵にかきます。

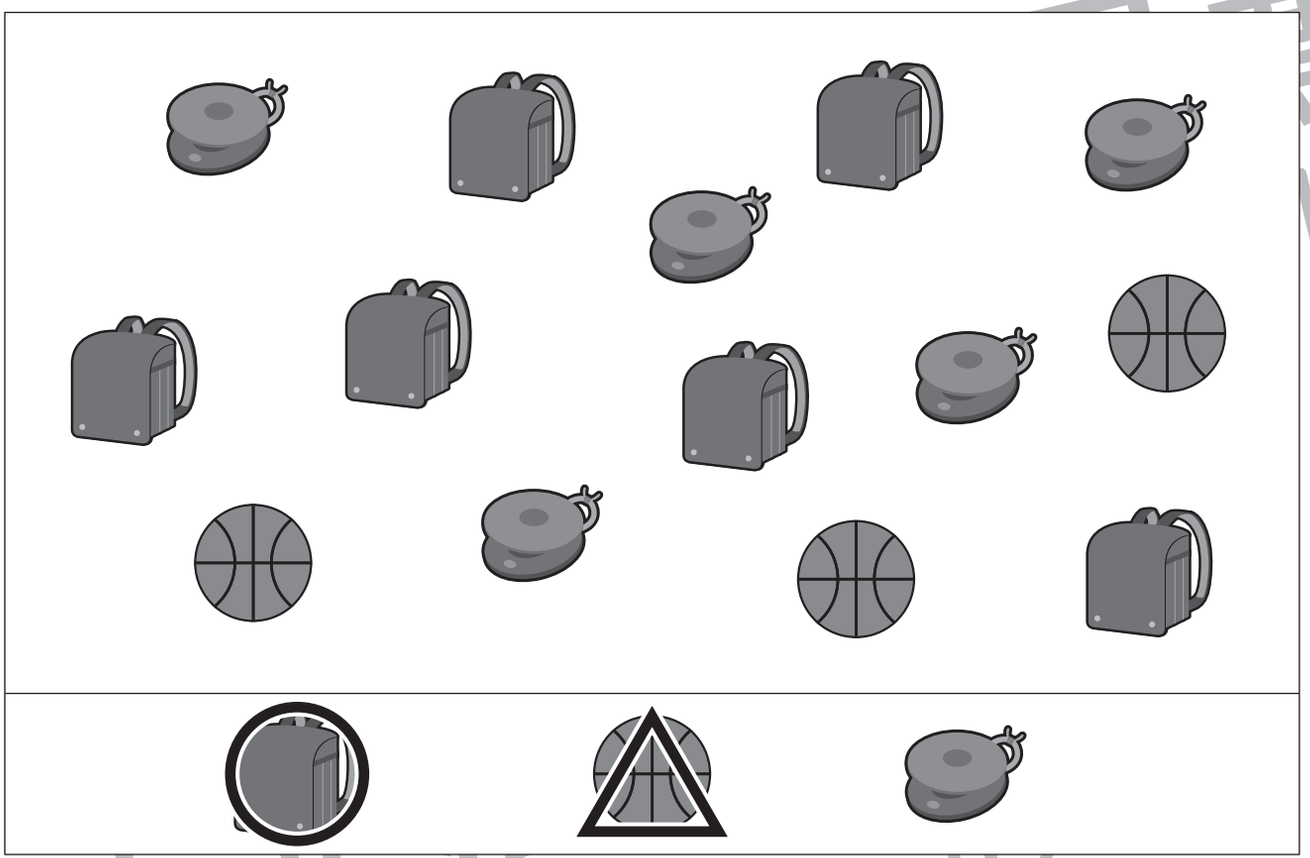

※1. このプリントは、しながわ・目黒こどもスクールのウェブサイトでダウンロードができます。無断複写・引用はご遠慮ください。
※2. このプリントを活用したオンライン授業のスケジュールは、しながわ・目黒こどもスクールのウェブサイトでご確認ください。

ICT 教育の小学校受験
しながわ・目黒こどもスクール
© こどもスクール ltd.

おうちで、やろう。

Study at home. 小学校受験の家庭学習教材

数量：足りない数９

左の四角の中の絵をすべて同じ数にするとき、ひとつだけ足りない絵があります。
その絵を探して右の四角の絵に足りない数だけ○をつけます。



※1. このプリントは、しながわ・目黒こどもスクールのウェブサイトでダウンロードができます。無断複写・引用はご遠慮ください。
※2. このプリントを活用したオンライン授業のスケジュールは、しながわ・目黒こどもスクールのウェブサイトでご確認ください。

ICT 教育の小学校受験
しながわ・目黒こどもスクール
© こどもスクール ltd.