記憶：短文記憶 12

短いお話を聞いて、問題に答えます。
【お話本文】
ある土曜日の午後、トラさんはお父さんと公園へ行きました。空は青く、少し風が吹いていました。トラさんは赤い帽子をかぶり、青色のボールを持ってきました。公園には滑り台とブランコ、シーソー、ジャングルジムなどたくさんの遊具があります。トラさんがお父さんとボールで遊んでいると、風が強く吹いて、被っていた帽子が飛ばされてしまいました。帽子はベンチの下までコロコロ転がっていきました。すると、近くにいたコアラさんが「はい、どうぞ」と言って、帽子を取ってくれました。トラさんは「ありがとう」と言って、お父さんとまた遊びました。帰る前に時計を見ると、おやつの時間になっていました。トラさんは最後にブランコで遊んでからお父さんと家に帰りました。家に帰ってから、トラさんはプリンをおやつに食べました。

①トラさんのボールの色で○の中を塗ります。
②トラさんの帽子を取ってくれたのは誰ですか。正しいものに○をつけます。
③トラさんは最後に何の遊具で遊んで帰りましたか。正しいものに○をつけます。

①

②



③

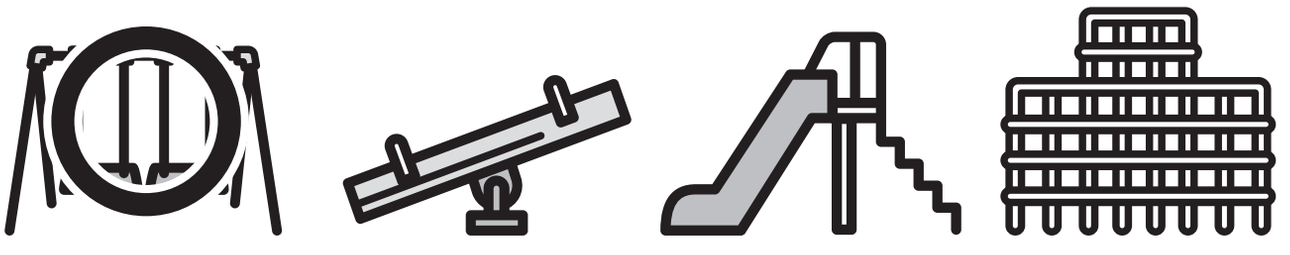

※1. このプリントは、しながわ・目黒こどもスクールのウェブサイトでダウンロードができます。無断複写・引用はご遠慮ください。
※2. このプリントを活用したオンライン授業のスケジュールは、しながわ・目黒こどもスクールのウェブサイトでご確認ください。
ICT 教育の小学校受験
しながわ・目黒こどもスクール
© こどもスクール ltd.

記憶：絵の記憶 13

別紙「記憶－絵の記憶 13（記憶用紙）」を使用します。記憶用紙を見た後に問題に取り組みます。

①②今見た絵で２番目に見た絵に○をつけます。

①



②



※1. このプリントは、しながわ・目黒こどもスクールのウェブサイトでダウンロードができます。無断複写・引用はご遠慮ください。
※2. このプリントを活用したオンライン授業のスケジュールは、しながわ・目黒こどもスクールのウェブサイトでご確認ください。

おうちで、やろう。年中児版

Study at home. 小学校受験の家庭学習教材

言語：しりとり６

上の四角の絵から下の四角の絵まで矢印の向きにしりとりでつなげます。
二つ絵があるところはどちらに進めばつながるかを考えて正しい絵に○をつけます。

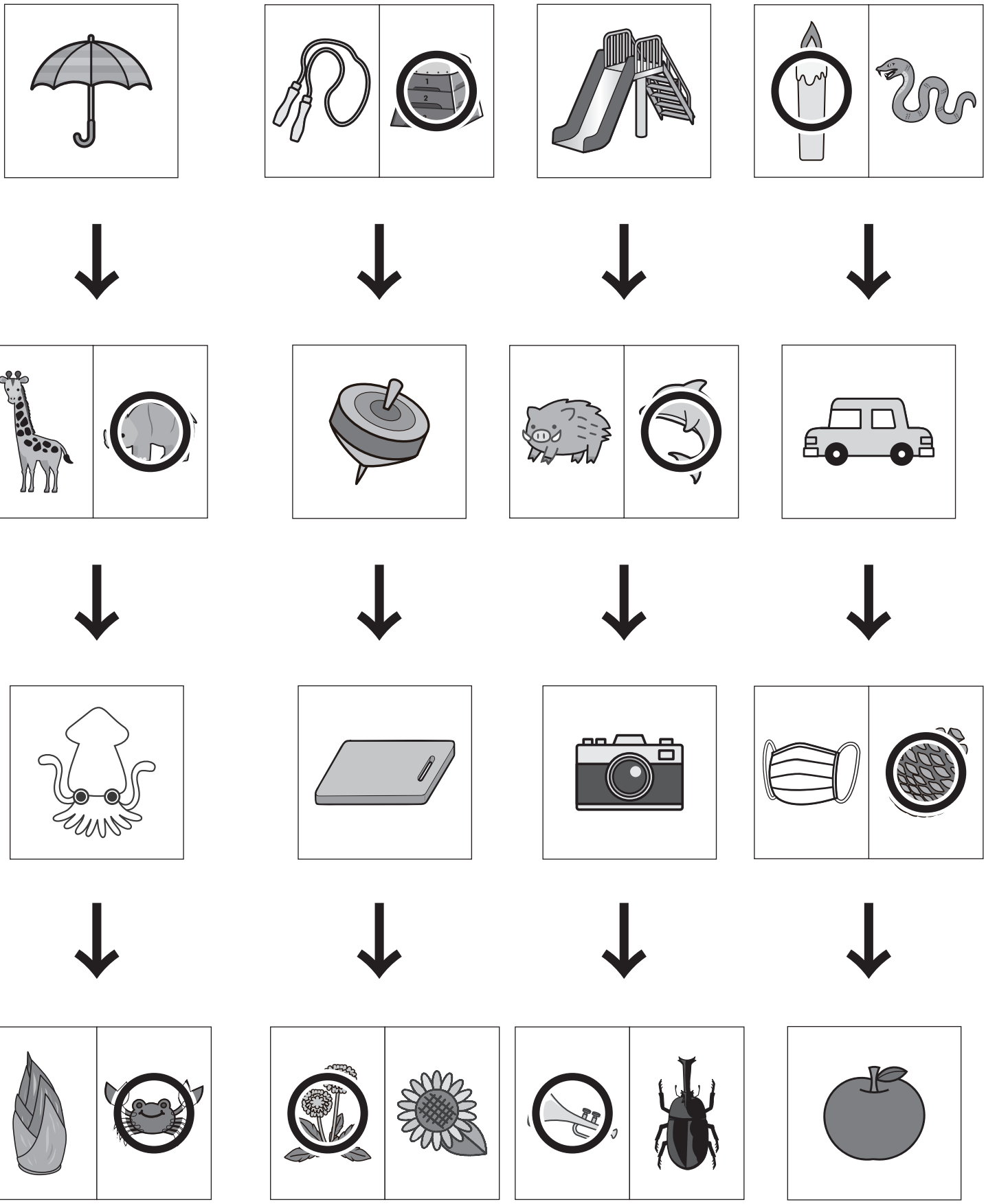

※1. このプリントは、しながわ・目黒こどもスクールのウェブサイトでダウンロードができます。無断複写・引用はご遠慮ください。
※2. このプリントを活用したオンライン授業のスケジュールは、しながわ・目黒こどもスクールのウェブサイトでご確認ください。

ICT教育の小学校受験
しながわ・目黒こどもスクール
© こどもスクール ltd.

おうちで、やろう。年中児版

Study at home. 小学校受験の家庭学習教材

言語：音の理解３

①太い四角の中の絵の音の数だけ右の四角に〇が並んでいます。左から順番に音を数える時「ぼ」の場所を塗ります。
②太い四角の中の絵の音の数だけ右の四角に〇が並んでいます。左から順番に音を数える時「う」の場所を塗ります。
③太い四角の中の絵の音の数だけ右の四角に〇が並んでいます。左から順番に音を数える時「つ」の場所を塗ります。
④太い四角の中の絵の音の数だけ右の四角に〇が並んでいます。左から順番に音を数える時「る」の場所を塗ります。
⑤太い四角の中の絵の音の数だけ右の四角に〇が並んでいます。左から順番に音を数える時「ぼ」の場所を塗ります。

①





②

③



④



⑤



※1. このプリントは、しながわ・目黒こどもスクールのウェブサイトでダウンロードができます。無断複写・引用はご遠慮ください。
※2. このプリントを活用したオンライン授業のスケジュールは、しながわ・目黒こどもスクールのウェブサイトでご確認ください。

© こどもスクール ltd.

推理：水量２

４つのコップの中に水が入っています。この中で水の量が2番目に多いコップに○をつけます。



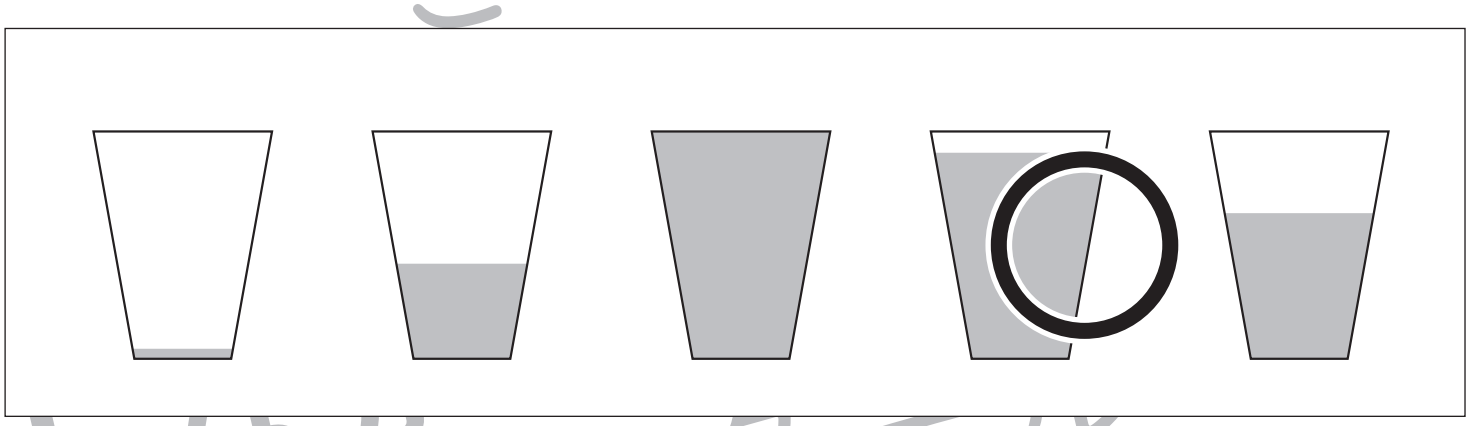



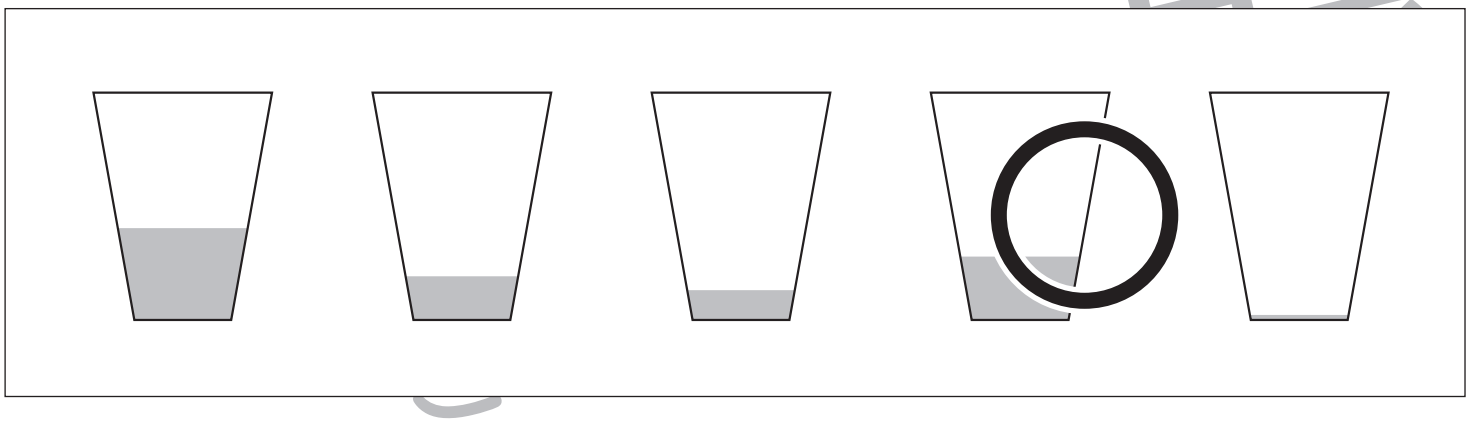

※1. このプリントは、しながわ・目黒こどもスクールのウェブサイトでダウンロードができます。無断複写・引用はご遠慮ください。
※2. このプリントを活用したオンライン授業のスケジュールは、しながわ・目黒こどもスクールのウェブサイトでご確認ください。

ICT 教育の小学校受験
しながわ・目黒こどもスクール
© こどもスクール ltd.

おうちで、やろう。年中児版

Study at home. 小学校受験の家庭学習教材

数量：広さ５

横に並んだ３つの中で、灰色の部分の広さが違うものをみつけて○をつけます。

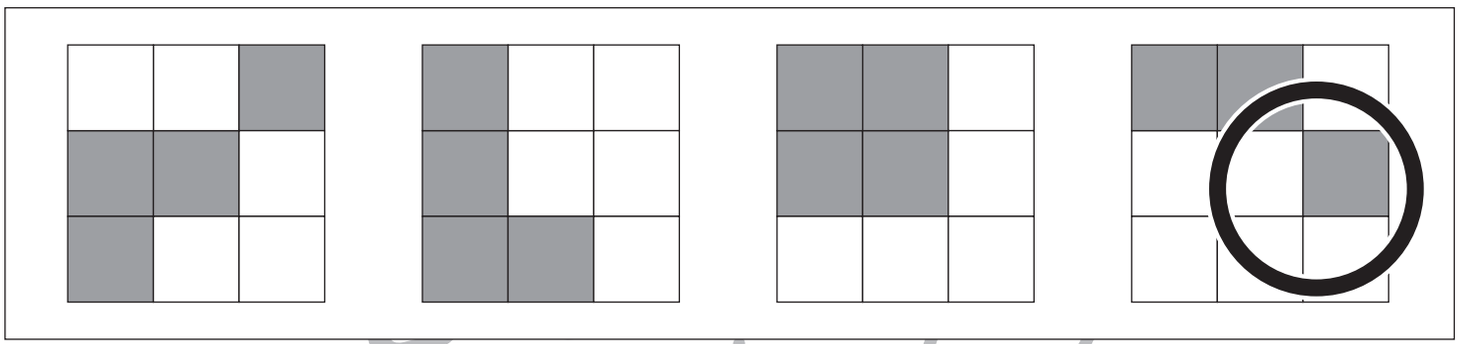

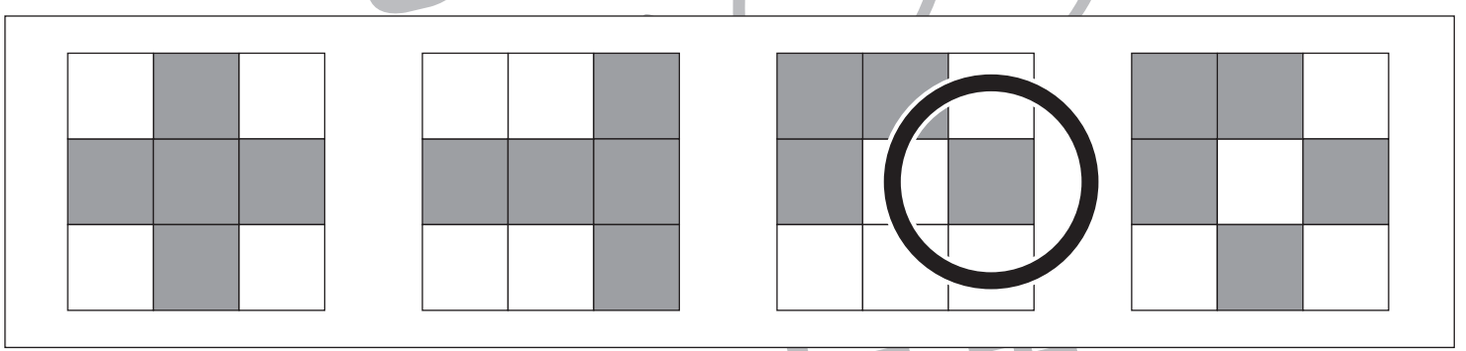

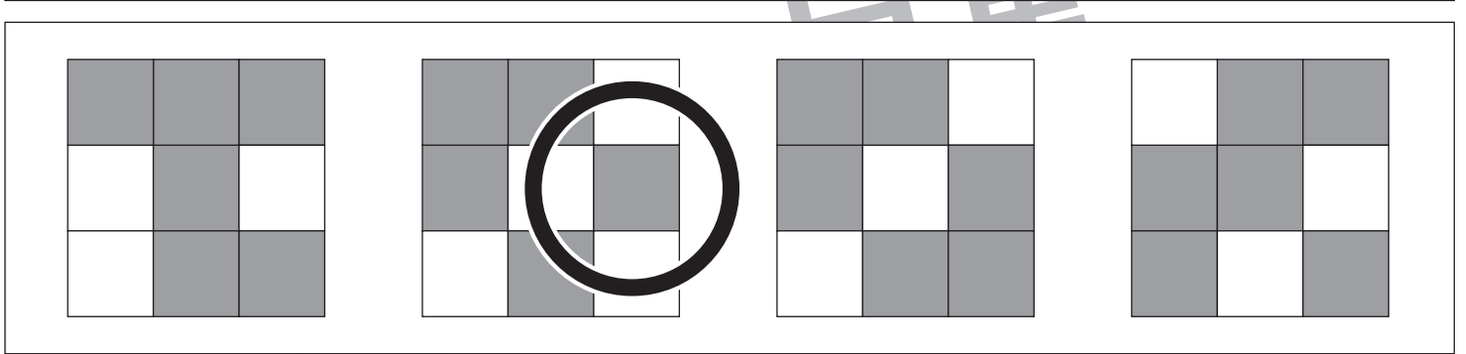

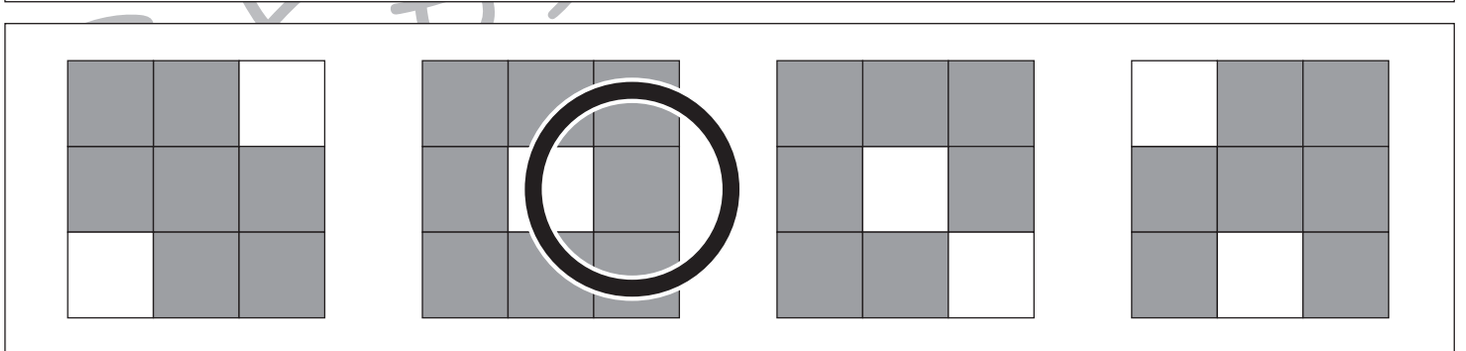

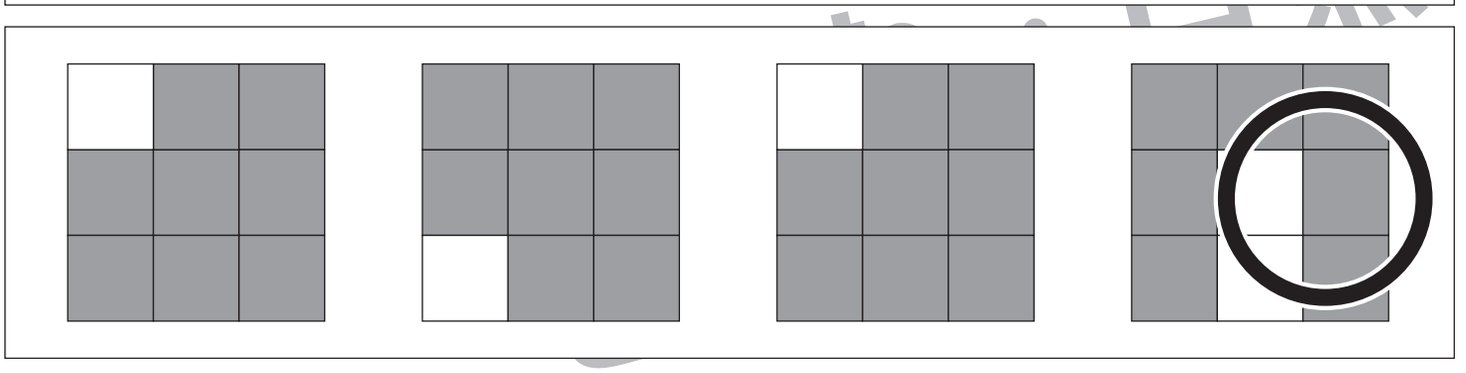

※1. このプリントは、しながわ・目黒こどもスクールのウェブサイトでダウンロードができます。無断複写・引用はご遠慮ください。
※2. このプリントを活用したオンライン授業のスケジュールは、しながわ・目黒こどもスクールのウェブサイトでご確認ください。

ICT 教育の小学校受験
しながわ・目黒こどもスクール
© こどもスクール ltd.

おうちで、やろう。年中児版

Study at home. 小学校受験の家庭学習教材

数量：広さ６

四角の中で、どちらの灰色のマスの方が広いかを考えて広い方に〇をつけます。

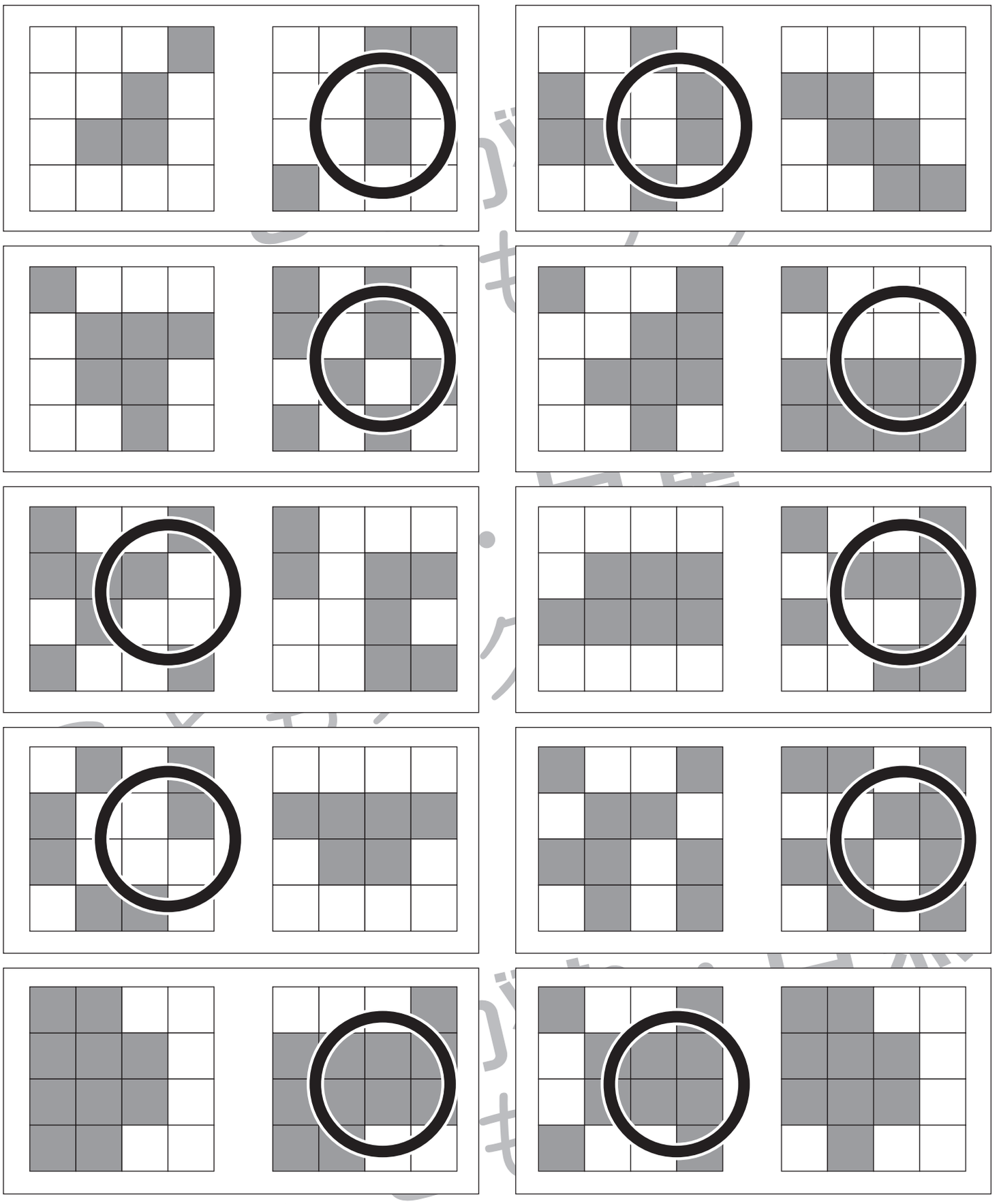

※1. このプリントは、しながわ・目黒こどもスクールのウェブサイトでダウンロードができます。無断複写・引用はご遠慮ください。
※2. このプリントを活用したオンライン授業のスケジュールは、しながわ・目黒こどもスクールのウェブサイトでご確認ください。

ICT 教育の小学校受験
しながわ・目黒
こどもスクール
© こどもスクール Ltd.

おうちで、やろう。年中児版

Study at home. 小学校受験の家庭学習教材

数量：積み木８

太い四角の中の積み木の数を数えて下の四角の中にその数だけ○をかきます。

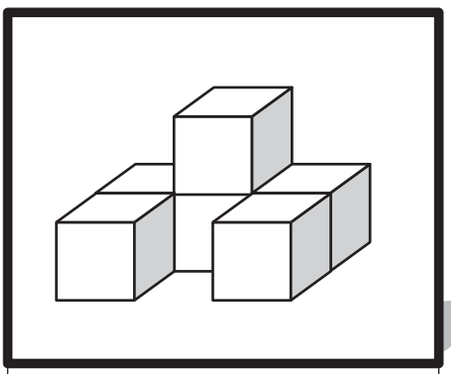

○×６

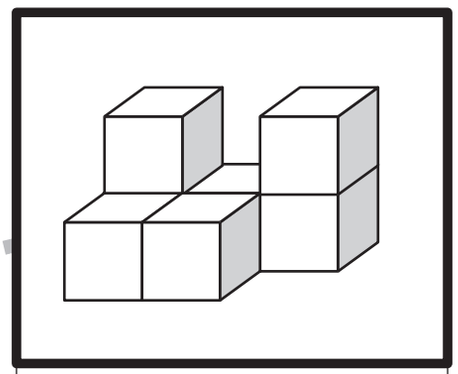

○×７

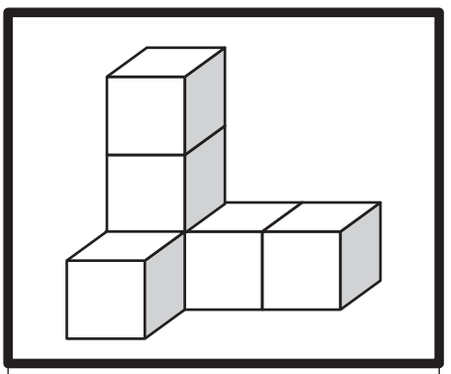

○×６

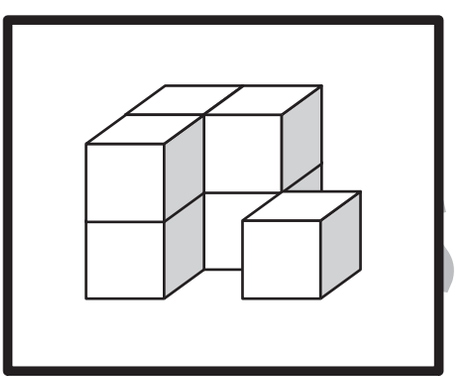

○×７

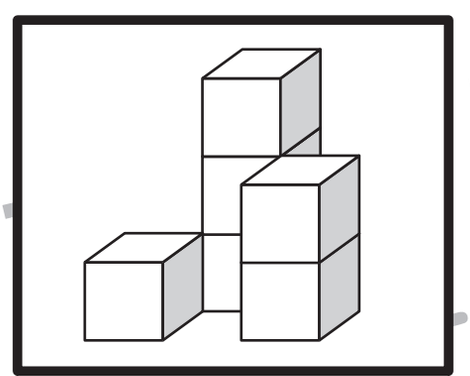

○×６

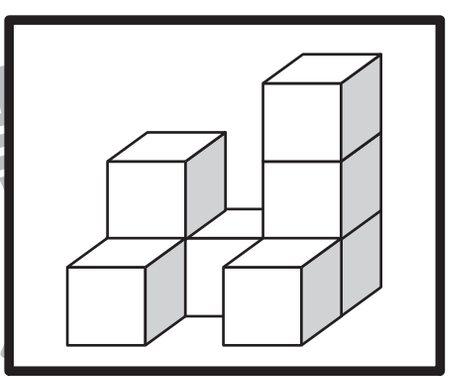

○×８

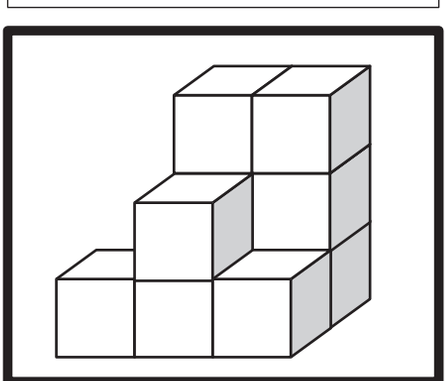

○×10

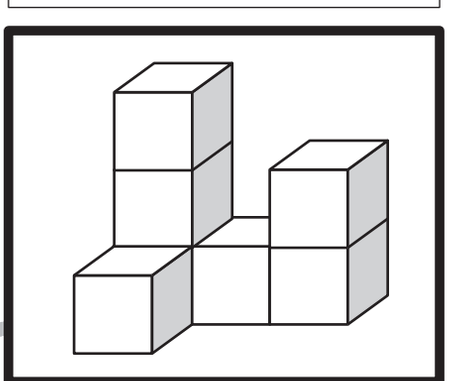

○×７

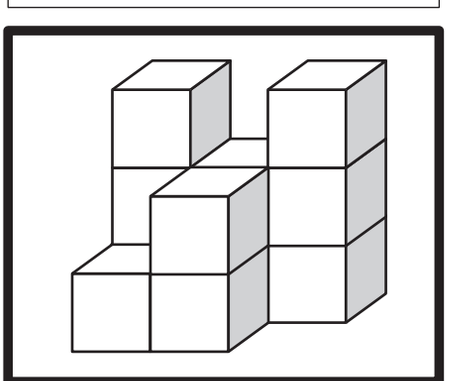

○×11

※1. このプリントは、しながわ・目黒こどもスクールのウェブサイトでダウンロードができます。無断複写・引用はご遠慮ください。
※2. このプリントを活用したオンライン授業のスケジュールは、しながわ・目黒こどもスクールのウェブサイトでご確認ください。

ICT 教育の小学校受験
しながわ・目黒こどもスクール
© こどもスクール ltd.